MISIONEROS CLARETIANOS
Escuela Básica La Presentación
Leonidas Plaza 2700 y Bolivia
Guayaquil – Ecuador

Escuela Claretiana
La Presentación

Una Institución al Servicio de la Vida
y la Dignidad del Ser Humano

EVALUACIÓN DE SEGUNDO PARCIAL SEGUNDO QUIMESTRE

Datos informativos

Nombre:

Fecha:

Curso: 3°

Paralelo: "A" / "B"

Asignatura: ESTUDIOS SOCIALES

Docentes: Patricia Alvarado / Genoveva Chica

1.- UNE CON LINEAS CADA TIPO DE SEÑAL CON SU RESPECTIVA FUNCION.

SEÑALES DE PELIGRO	**SEÑALES DE PROHIBICIÓN**	**SEÑALES DE INFORMACIÓN**

2.- OBSERVA CADA IMAGEN Y SELECIONA EL NOMBRE CORRECTO DE CADA LUGAR TURISTICO.





LA MITAD DEL MUNDO	**MALECON DEL SALADO**	**PARQUE SANGAY**	**ISLA PUNA**
LA MITAD DE LA TIERRA	**MALECON 2.000**	**PARQUE SANTILLAN**	**ISLA GALAPAGOS**

LIVEWORKSHEETS

3.- ESCRIBE EN CADA IMAGEN SI ES SERVICIO PÚBLICO O SERVICIO PRIVADO.



4.- OBSERVA LAS ILUSTRACIONES, RELACIONA SI ES VIAS DE COMUNICACIÓN O MEDIOS DE TRANSPORTE.



VIAS DE COMUNICACION

MEDIOS DE TRANSPORTE

5.- EN LA SOPA DE LETRA, ENCUENTRA OCHO ATRACTIVOS TURISTICOS DEL ECUADOR.

A	I	L	P	K	P	C	A	I	E
I	N	A	Ñ	I	A	A	E	G	E
M	T	G	E	R	R	S	N	L	E
R	I	O	S	V	Q	C	W	E	B
N	R	S	L	O	U	A	T	S	C
I	S	L	A	S	E	D	E	I	R
P	Y	Y	H	U	S	A	G	A	O
Q	M	U	S	E	O	S	U	S	J
M	O	N	U	M	E	N	T	O	S

LIVEWORKSHEETS

6.- INDICA QUE SIGNIFICA CADA UNA DE ESTAS SEÑALES DE TRANSITO.

7.- ESCRIBE EL NOMBRE DE ESTOS MEDIOS DE TRANSPORTE Y A QUE CIUDAD PERTENECEN.

8.- SEÑALA LOS JUEGOS TRADICIONALES DE TU CIUDAD GUAYAQUIL.

LIVEWORKSHEETS

9.- OBSERVA CADA IMAGEN, INDICA QUE ACTIVIDAD ECONÓMICA REALIZAN.

LIVEWORKSHEETS