Bacalah teks berikut!

Tari Pakarena

Tari Pakarena merupakan salah satu tarian tradisional daerah dari Sulawesi Selatan. Tarian ini diiringi oleh dua kepala drum atau gandrang dan sepasang instrumen alat seperti suling yang disebut dengan puik-puik. Selain tari pakarena yang selama ini telah dimainkan oleh maestro tari Maccoppong Daeng Rannu di kabupaten Gowa, ternyata masih ada jenis tari pakarena lainnya yang berasal dari Kepulauan Selayar.

Tari pakarena inilah dikenal sebagai Tari Pakarena Gantarang. Disebut Pakarena Gantarang karena tarian khas Sulawesi yang satu ini berasal dari perkampungan yang dulunya pernah menjadi pusat kerajaan di Pulau Selayar yaitu Gantarang Lalang Bata. Tari Pakarena Gantarang ditarikan oleh empat orang penari perempuan. Tarian ini pertama kali muncul pada abad ke 17, tepatnya pada tahun 1903 yaitu pada saat Panali Patta Raja dilantik menjadi Raja di Gantarang Lalang Bata.

Pada pertunjukkan Tari Pakarena, tarian dimainkan dalam 12 bagian. Tiap gerakannya mempunyai makna dan filosofi masing – masing. Posisi duduk menjadi tanda awal dan akhir tarian ini. Gerakan berputar yang mengikuti arah jarum jam menggambarkan siklus kehidupan manusia yang terus berputar. Sementara gerakan naik turun melambangkan irama kehidupan yang tidak pernah mulus. Selalu ada saatnya seseorang berada di atas dan berada di bawah.

Ayo Berdiskusi

1. Adakah kata sulit yang kalian temukan pada bacaan tersebut? Jika ada, tuliskan lalu carilah artinya. Tuliskan dalam bentuk tabel seperti berikut.

No.	Kata Sulit dari teks "Tari Pakarena"	
	Kata Sulit	**Artinya**

2. Tulislah pokok pikiran dari setiap paragraf pada teks "Tari Pakarena".

Pokok pikiran paragraf 1:

Pokok pikiran paragraf 2:

LIVEWORKSHEETS

Pokok pikiran paragraf 3:

Tugas

Berdasarkan teks "Pola Lantai Gerak Tari", kerjakan tugas berikut.

1. Tuliskan kembali pengertian pola lantai menggunakan bahasamu sendiri. Usahakan agar orang lain memahami dengan mudah saat membaca tulisanmu. Gunakan kosakata baku.

Ayo Berdiskusi

Perhatikan gambar beberapa alat elektronik berikut.

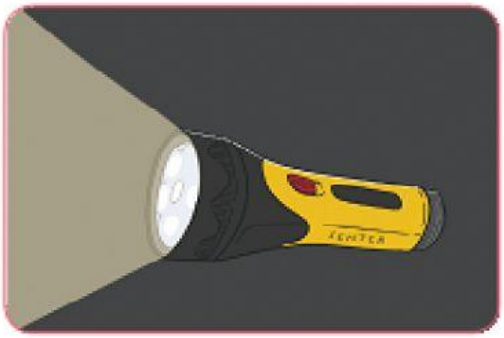

Gambar 2.8 Lampu senter

Gambar 2.9 Kipas Angin

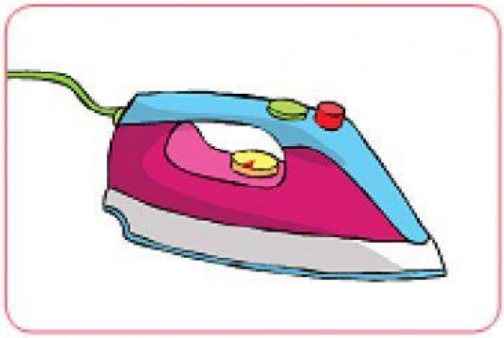

Gambar 2.10 Setrika

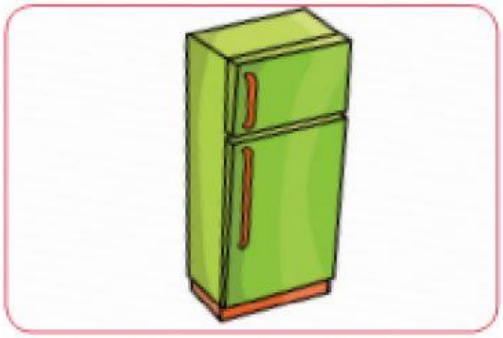

Gambar 2.11 Lemari pendingin

1. Apa yang menyebabkan lampu senter dapat menyala?
2. Apa yang menyebabkan kipas angin dapat berputar?
3. Apa yang menyebabkan setrika menjadi panas?
4. Apa yang menyebabkan air dapat membeku di dalam lemari pendingin?

Diskusikan dengan teman-teman sekelompokmu, lalu bacakan hasil diskusimu di depan Bapak/Ibu guru dan kelompok lain.

LIVEWORKSHEETS

Tugas

Tuliskan peralatan elektronik yang kamu ketahui beserta fungsinya. Tuliskan dalam bentuk tabel seperti berikut.

No.	Nama Alat Elektronik	Fungsi
1.	Lampu	Sebagai alat penerangan

Evaluasi PB 2

Dugderan adalah tradisi budaya khas Semarang yang telah diadakan sejak tahun 1881. Tradisi tersebut merupakan salah satu cara mencurahkan rasa rindu mereka pada bulan Ramadan atau bulan seribu berkah. Biasanya tradisi ini diselenggarkan 1-2 minggu sebelum bulan Ramadan.

1. Gagasan utama paragraph di atas adalah ….
   a. Dugderan adalah tradisi budaya khas Semarang sejak tahun 1881
   b. Dugderan adalah suku bangsa di Semarang
   c. Cara mencurahkan rasa rindu pada bulan Ramadan
   d. Tradisi dugderan diselenggarakan 1-2 minggu sebelum bulan Ramadan

2. Tradisi ini diselenggarakan pada ….
   a. 1-2 minggu sebelum bulan Syawal
   b. 1-2 minggu sebelum bulan Sya'ban
   c. 1-2 minggu sebelum bulan Rajab
   d. 1-2 minggu sebelum bulan Ramadhan

3. Pola denah yang dilakukan oleh seorang penari dengan perpindahan pergerakan dan pergeseran posisi dalam sebuah ruang untuk menari adalah …
   a. Pola lantai
   b. Gerak tari
   c. Seni tari
   d. Penyajian tari

LIVEWORKSHEETS

4. Gaya yang terjadi karena aliran muatan listrik adalah gaya …
   a. Magnet
   b. Listrik
   c. Otot
   d. Gesek

5. Seorang kipper menangkap bola. Sang kipper menggunakan gaya agar ….
   a. Bentuk benda berubah
   b. Benda diam menjadi bergerak
   c. Benda bergerak menjadi makin cepat
   d. Benda bergerak menjadi diam

LIVEWORKSHEETS