ชิ้นงานที่ 2 เรื่อง การคิดหารูปแบบ

วันที่_____เดือน_____พ.ศ._____

ชื่อ-สกุล_____เลขที่_____ชั้น_____

ได้_____คะแนน

คะแนนเต็ม 10 คะแนน

นักเรียนร่วมกันอภิปราย เพื่อวิเคราะห์หารูปแบบและตอบคำถามของสถานการณ์ต่อไปนี้

1. 3 4 6 9 ?

2. 4 1 2 3 0 5 ? 7

3. D A O C C E T G O I ?

4.

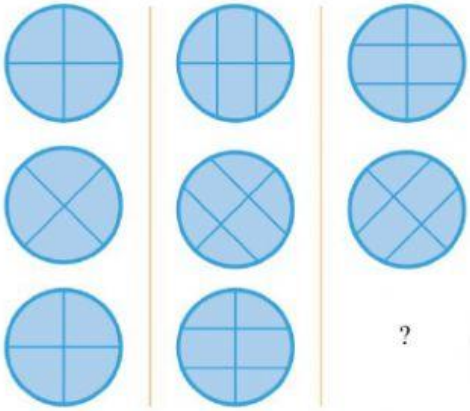

LIVEWORKSHEETS

5.

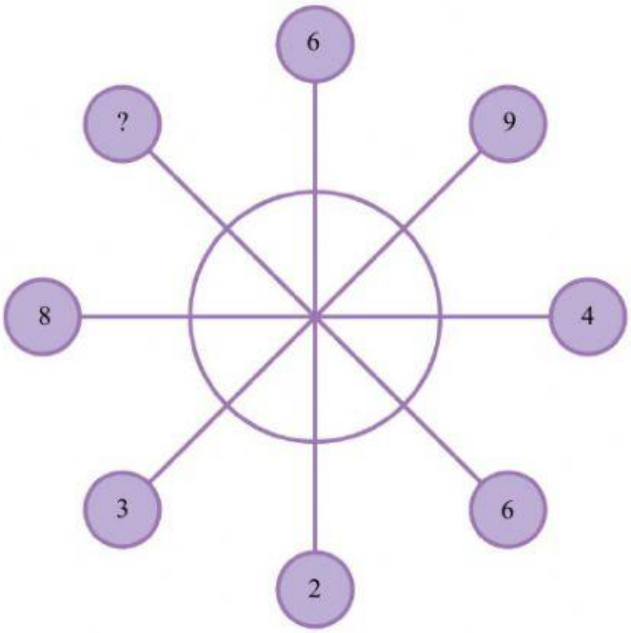

6.

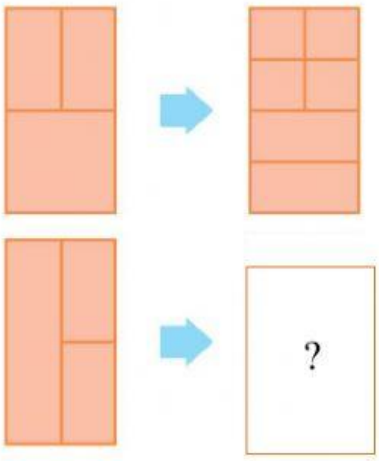

7.

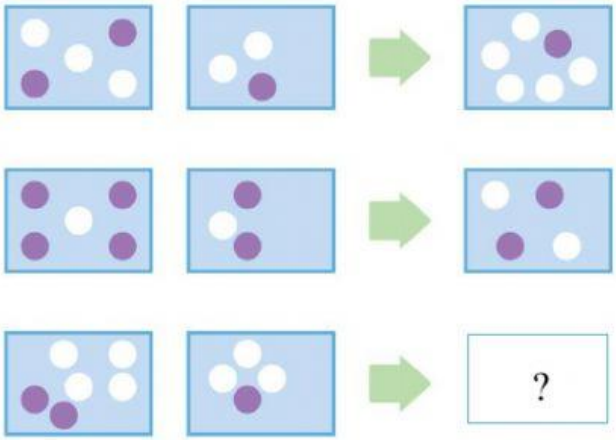

LIVEWORKSHEETS

8.

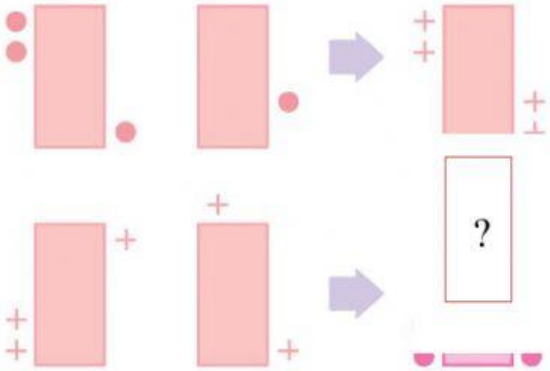

9.

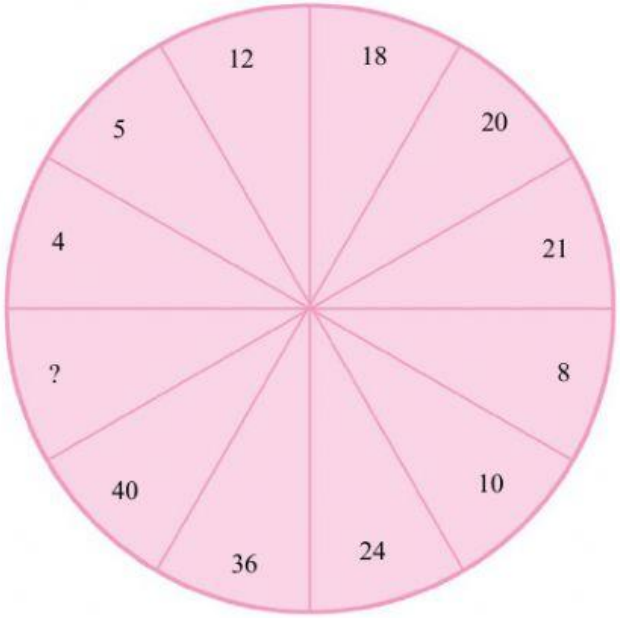

10.

6	7	9	12
9	?	12	15
11	?	?	17
12	13	15	?

LIVEWORKSHEETS