SEGITIGA

NAME: _____ KELAS : _____



uinjambi.ac.id

LIVEWORKSHEETS

Tontonlah video berikut ini!!

LIVEWORKSHEETS

PILIHAN GANDA

1. Ada berapa sudut segitiga....

A.1 C.3

B.2 D.4

2. Berapa besar sudut segitiga siku-siku...

A.80° C.75°

B.90° D.85°

3. Perhatikan gambar!

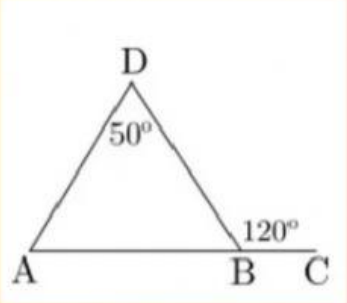

Besar < BAD adalah ....

A.100 C.70

B.90 D.60

4.

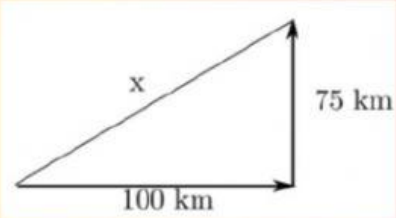

Besar nilai x adalah...km

A.100 C.150

B.125 D.65,5

5. Perhatikan gambar berikut!

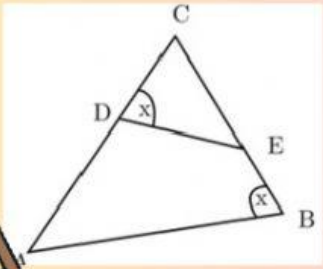

Diketahui AB = 12cm, CD = 7cm, AD = 8cm, DE = 8 cm

Panjang CE adalah.....cm

A.10 C.15

B.5 D.20

LIVEWORKSHEETS

URAIAN SINGKAT

1. Diketahui sudut-sudut sebuah segitiga adalah 60° dan 80°, maka besar sudut yang lain adalah . . . .

2. Luas dari segitiga dibawah ini adalah..

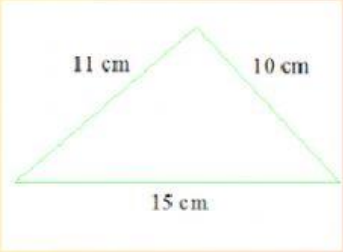

3. Berikut ini segitiga yang ketiga sisi memiliki besar sudut yang sama adalah....

4. Diketahui luas sebuah segitiga adalah 165 cm2 dan panjang alasnya 22 cm. Hitunglah tinggi segitiga?

5. Diketahui sebuah segitiga memiliki ukuran alas 10 cm dan tinggi 8 cm, berapa luas segitiga tersebut ?

LIVEWORKSHEETS

HUBUNGKAN GAMBAR DIBWAH INI



• sama sisi



• siku-siku



•sama kaki

LIVEWORKSHEETS

TEMUKAN KATA-KATA DIDALAM FUZZLE

S	A	M	A	S	I	S	I	H	U
S	A	R	I	O	W	J	C	A	T
A	D	M	A	T	H	Z	T	X	N
M	O	S	E	G	I	T	I	G	A
A	O	B	C	K	A	L	U	N	G
S	A	M	A	K	A	K	I	N	G
I	W	M	N	Q	T	L	W	D	P
H	G	S	I	K	U	S	I	K	U

SEGITIGA

SAMA SISI

SAMA KAKI

Siku-siku



LIVEWORKSHEETS

BIOGRAFI PENULIS

Nama : SYUKRIKA HUSNI

Tempat/tanggal lahir : Sumatera 17 April 2003

Mahasiswa UIN SULTAN THAHA SAIFUDDIN JAMBI

LIVEWORKSHEETS