CONTROL TEMA 5- NATURAIS

Responde si as seguintes afirmacións son **verdadeiras** ou **falsas**. Na mesma pregunta pode haber unha falsa e outra verdadeira, pero tamén pode darse o caso de que as dúas sexan verdadeiras ou que as dúas sexan falsas.

En minúsculas, en feminino e en singular as respostas.

Afirmación 1

a) A dixestión é o proceso polo que os alimentos e as bebidas que tomamos se descompoñen en nutrientes que o corpo pode usar para obter materia e enerxía.
b) O encargado de realizar esta tarefa é o aparato dixestivo

Afirmación 2

a) O aparato respiratorio está formado polo tubo dixestivo y polas glándulas anexas
b) O aparato excretor está formado polo tubo dixestivo e polo tubo excretor

---

Afirmación 3

a) As glándulas anexas. Son órganos que axudan na dixestión do alimento vertendo ao tubo dixestivo as súas secrecións:
b) O tubo dixestivo. Comeza no estómago e remata no ano.

Afirmación 4

a) Os incisivos son os dentes que normalmente usas para dares bocados e cortares o alimento
b) Os premolares e os molares son puntiagudos, polo que permiten esgazar os alimentos máis duros

---

Afirmación 5

a) Os primeiros dentes que aparecen na infancia forman a dentición de leite. Caracterízanse por ser temporais
b) Os primeiros dentes que aparecen na infancia forman a dentición de leite. Caracterízanse por ser definitivos

---

LIVEWORKSHEETS

Afirmación 6

a) Mentres se mastiga o alimento vaise mesturando coa saliva, un líquido que segregan as glándulas salivares e que axuda na dixestión.
b) A saliva tamén ten unha función de defensa, xa que destrúe algunhas bacterias que se atopan nos alimentos.

Afirmación 7

a) O estómago é o órgano en forma de baúl encargado de acoller o bolo alimentario que permanecerá aí varias horas antes de pasar ao intestino
b) O estómago é unha parte do tubo dixestivo especializada na dixestión do alimento. As súas paredes interiores son lisas e estíranse a medida que o estómago se enche

---

Afirmación 8

a) O fígado, un órgano que desenvolve centos de, produce bile, un líquido que actúa disolvendo as graxas.
b) O páncreas e o fígado verten os seus zumes cara ao intestino groso, contribuíndo con eles á dixestión do alimento

---

Afirmación 9

Nesta imaxe, o nome do órgano que aparece tapado é o ....

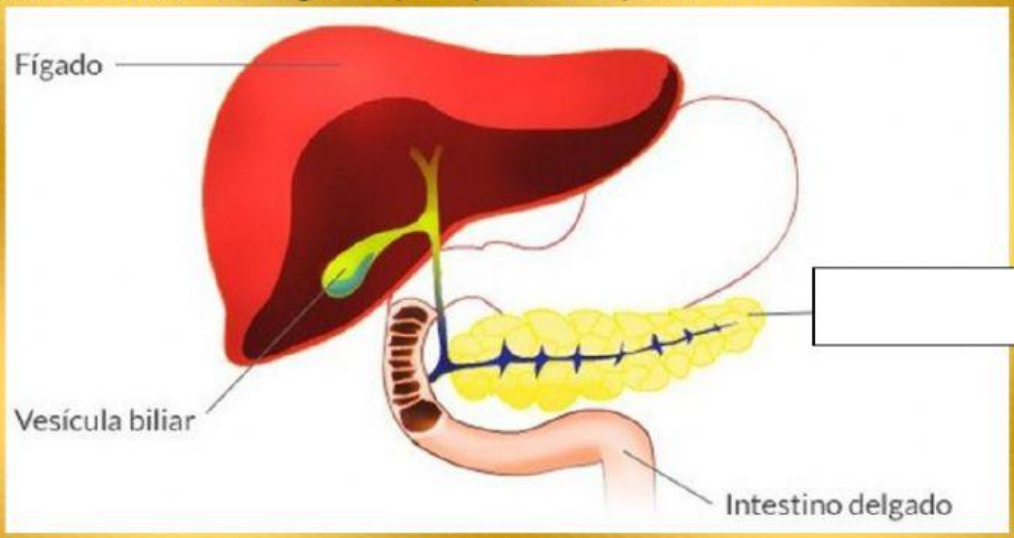

a) Corazón
b) Páncreas

LIVEWORKSHEETS

Afirmación 10

a) No intestino groso absórbese a auga e outras substancias de pequeno tamaño. Deste modo vaise formando pouco a pouco unha masa máis dura que dará lugar ás feces.
b) As feces conteñen todas aquelas substancias que non puideron ser aproveitadas polo organismo. Expúlsanse ao exterior a través do ano.

Afirmación 11

a) Enfermidade celíaca: é unha enfermidade que afecta ao fígado
b) Hepatite: é unha enfermidade na que o intestino está afectado pola presencia de gluten, unha proteína presente na fariña de trigo que lle outorga a este cereal grande parte do seu valor nutritivo.

Afirmación 12

a) A auga é o compoñente maioritario do noso corpo. Cando nacemos o noso corpo ten o 60% de auga e cando somos adultos o 75%.
b) A auga Encóntrase tanto nos alimentos líquidos coma nos sólidos.

Afirmación 13

Na seguinte imaxe referente ao aparato respiratorio ademais do osíxeno que outras substancias adquire o noso corpo?

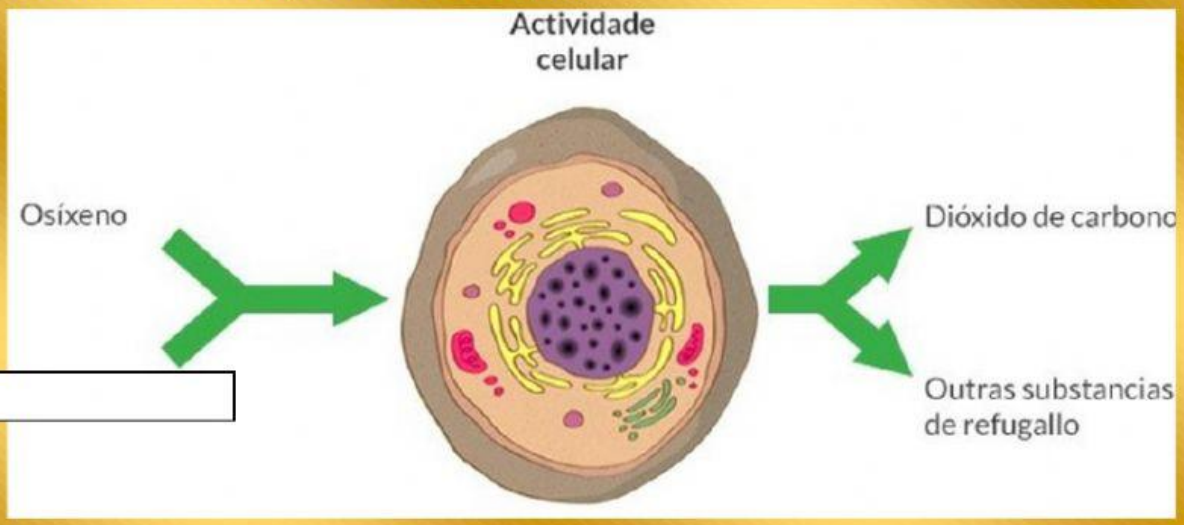

a) Nutrientes
b. Calcio

LIVEWORKSHEETS

Afirmación 14

a) As vías respiratorias: son unha serie de condutos que transportan o osíxeno ata os pulmóns e o dióxido de carbono ao exterior
b) Os pulmóns: son os órganos encargados de realizar o intercambio de gases entre o aire e o sangue

---

Afirmación 15

a) Dentro das fosas nasais o aire quéntase grazas á calor do noso propio corpo
b) Nas fosas nasais atopamos os mocos, que non serven para nada

---

Afirmación 16

a) Para mover o aire polas vías respiratorias e os pulmóns realízase a ventilación pulmonar, que consta de dous movementos:
   a. A inspiración, que provoca a saída do aire ao exterior.
   b. A expiración, que provoca a entrada do aire nos pulmóns
b) Para mover o aire polas vías respiratorias e os pulmóns realízase a ventilación pulmonar, que consta de dous movementos:
   a. A inspiración, que provoca a entrada do aire nos pulmóns.
   b. A expiración, que provoca a saída do aire ao exterior.

Afirmación 17

a) Do corazón saen as arterias, as cales se dividen sucesivamente para formar vasos moi finos, chamados capilares, que chegan a todos os tecidos do corpo.
b) Os capilares únense de novo para formar veas, que regresan ao corazón.

Afirmación 18

a) O corazón sitúase no tórax. Está lixeiramente inclinado e rotado cara á dereita.
b) Divídese en dúas cavidades

LIVEWORKSHEETS

Afirmación 19

Esta é unha imaxe:

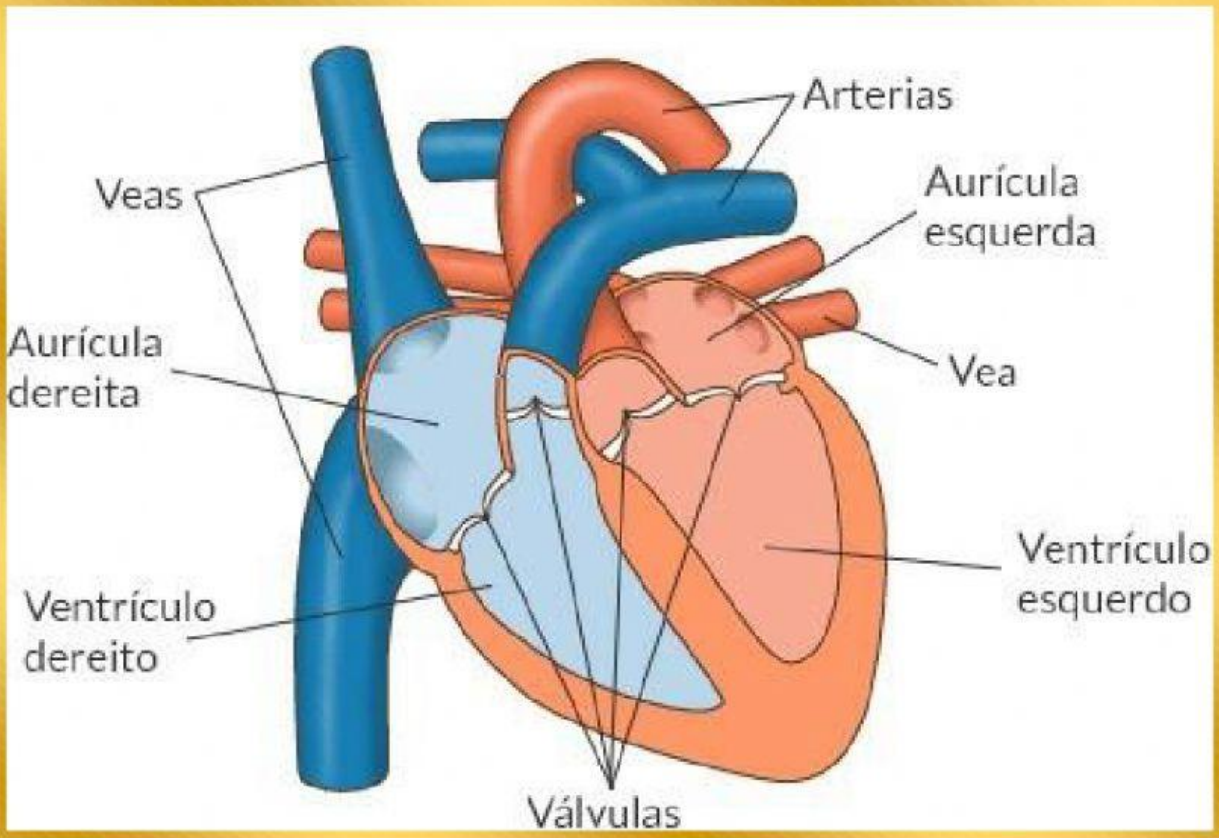

a) Do corazón
b) Dos pulmóns

Afirmación 20

a) O movemento de sístole e un movemento de relaxación do corazón.

b) O movemento de diástole é un movemento de contracción do corazón

---

Afirmación 21

a) O sangue é un tecido sólido de cor vermella formado por células que flotan nun líquido chamado plasma..

b) Os glóbulos vermellos son un grupo encargado de defender o noso corpo fronte a substancias extrañas e axentes infecciosos.

Afirmación 22

a) O pulmón tamén é un órgano excretor

b) O dióxido de carbono é expulsado do corpo a través do aire que respiramos

LIVEWORKSHEETS

Afirmación 23

Como se chama o que indica a frecha?

a) Glándula sudorípara

b) Conduto sudoríparo

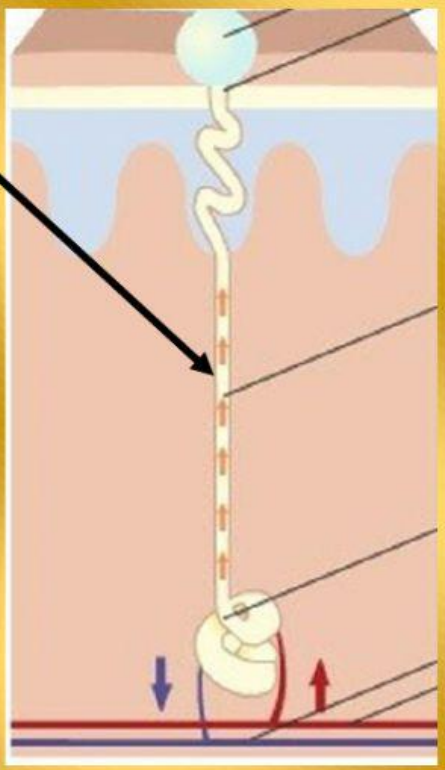

Escribe a palabra que se corresponde con cada definición

a) Masa branda de comida que se forma ao mastigar e mesturar os alimentos coa saliva

b) Músculo plano que se sitúa debaixo dos pulmóns e separa a cavidade torácica da abdominal.

c) Organismo que non é capaz de fabricar o seu propio alimento. Os organismos heterótrofos obteñen a materia e a enerxía alimentándose da materia que produciron outros seres vivos

d) Líquido leitoso que contén substancias nutritivas e que se forma no intestino delgado a partir do quimo.

e) Substancia producida e liberada por unha célula ou grupo de células.

LIVEWORKSHEETS