Área: Matemáticas
Tema: Refuerzo parcial
Objetivos:
Aplicar las habilidades y conocimientos desarrollados y adquiridos durante el parcial.

1. **Une las rectas paralelas y perpendiculares según corresponda.**

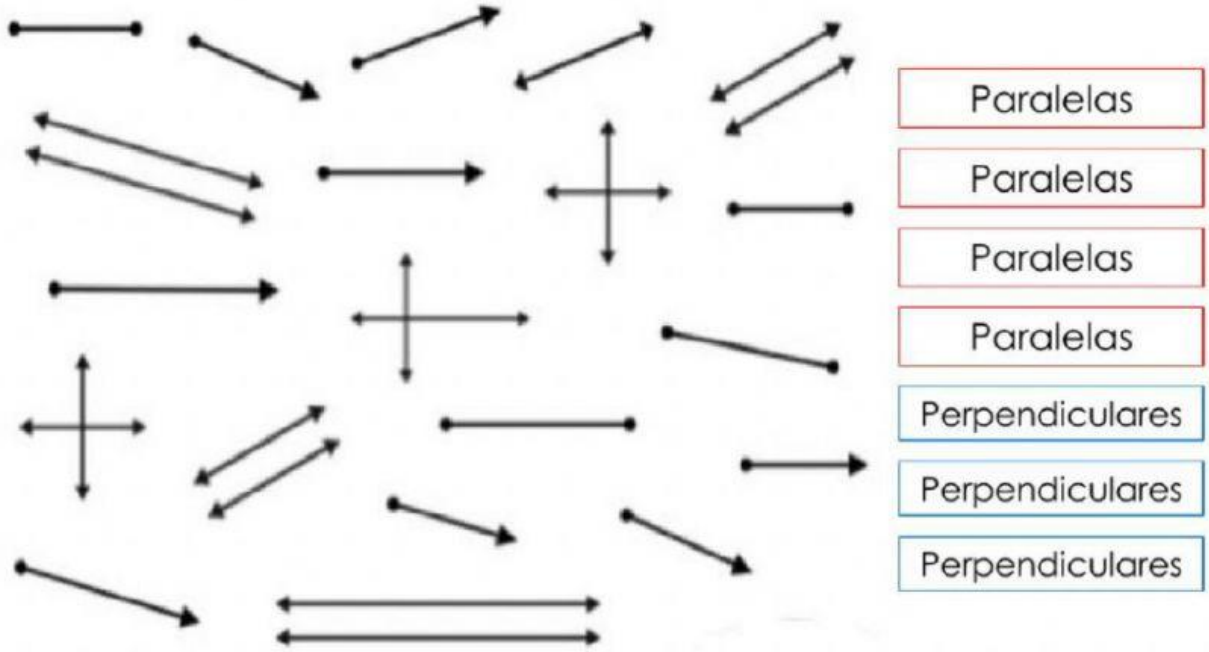

2. **Etiqueta las siguientes figuras con su nombre correcto.**



LIVEWORKSHEETS

3. Escribe el nombre de cada ángulo según su medida.

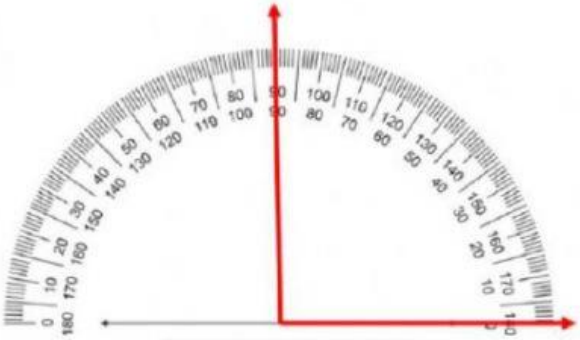

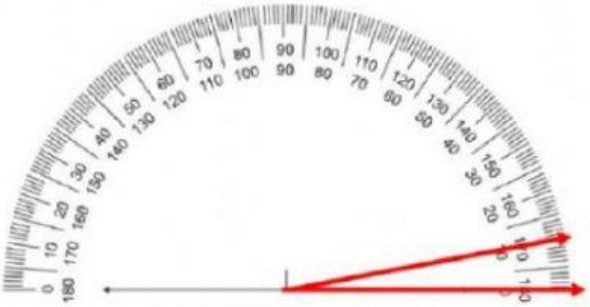

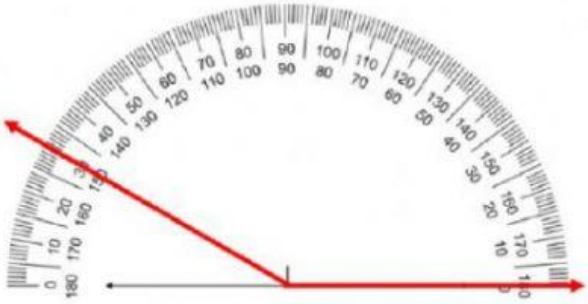

LIVEWORKSHEETS

4. Da un clic sobre las imágenes que son simétricas.

5. Escoge la probabilidad correcta para cada situación.

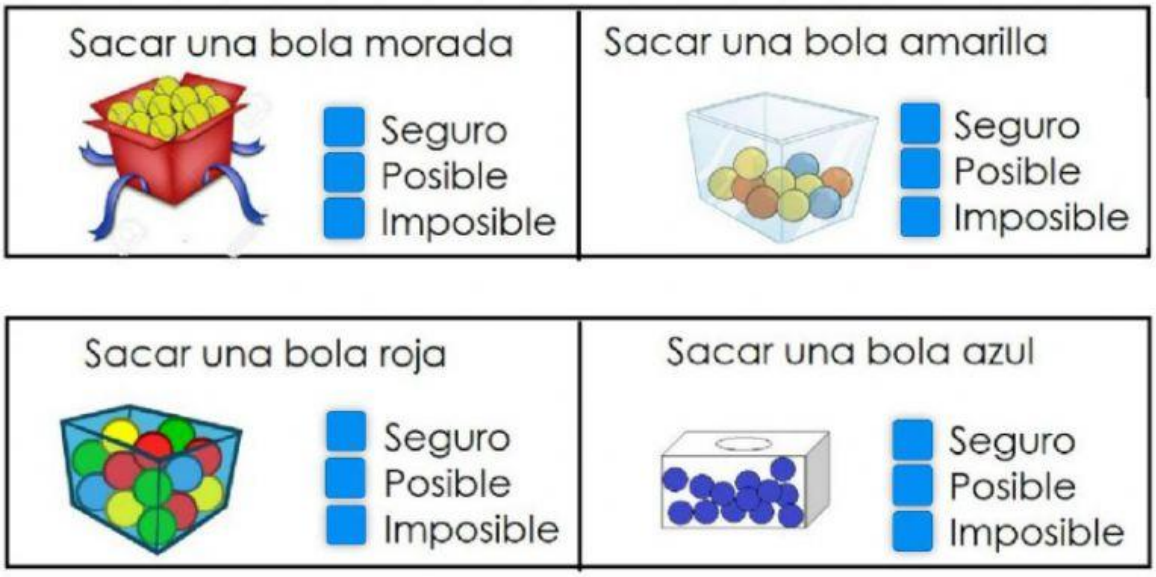

6. El siguiente gráfico es un diagrama de barras vertical elaborado con las estaturas en centímetros (cm) de un grupo de estudiantes. Observa y responde.

LIVEWORKSHEETS

¿Cuántos estudiantes miden entre 120 cm y 130 cm?
Respuesta: _____estudiantes.

¿Cuántos estudiantes miden más de 110 cm, pero menos de 130 cm?
Respuesta: _____estudiantes.

Consejo de la semana

LIVEWORKSHEETS