PENILAIAN AKHIR TAHUN
SEKOLAH DASAR NEGERI PULO LOR I
KECAMATAN JOMBANG KABUPATEN JOMBANG
TAHUN PELAJARAN 2022/2023

NAMA	:	MATA PELAJARAN	: MATEMATIKA
NO.ABSEN	:	NILAI	: .....
HARI / TANGGAL	:		

I. Pilihlah salah satu jawaban yang benar !

1. $\sqrt[3]{14}$ = ...

A. 2.741 C. 2.477

B. 2.744 D. 2.474

2.

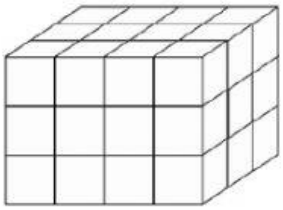

Jumlah satuan kubus yang menyusun bangun diatas adalah .....

A. 24 B. 32 C. 36 D. 40

3. Volume kbus dengan panjang sisi 13 cm adalah .....

A. 2.197 cm^3 B. 2.297 cm^3 C. 2.744 cm^3 D. 2.774 cm^3

4. Panjang sisi kubus jika diketahui volume kubus 4.913 cm^3 adalah ....

A. 16 cm B. 17 C. 18 cm D. 19cm

5. Volume bangun ruang berikut adalah .....

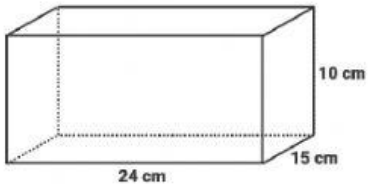

A. 3.200 cm^3 C. 4.000 cm^3

B. 3.600 cm^3 D. 4.500 cm^3

6. Sebuah kolam renang panjangnya 20 meter dan lebarnya 12 meter. Jika volume kolam renang 336.000liter. Kedalaman kolam renang adalah .....

A. 120 cm C. 150 cm

B. 140 cm D. 180 cm

LIVEWORKSHEETS

7. Damar mempunyai 2 buah kubus dengan panjang sisi 15 cm dan 18 cm. Selisih volume kedua kubus Damar adalah .....

A. 1544 cm^3 C. 2445 cm^3

B. 1457 cm^3 D. 2457 cm^3

8.

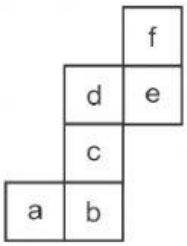

Jika (e) adalah alas kubus, atap kubus adalah .....

A. a B. b C. c D. d

9. Jika diketahui panjang sisi kubus 14 cm. Berapa luas jaring – jaring kubus?

A. 876 cm^2 C. 1.076 cm^2

B. 976 cm^2 D. 1.176 cm^2

10. Sebuah balok dengan panjang 20 cm, lebar 8 cm dan tinggi 5 cm. Luas jaring – jaring balok adalah .....

A. 480 cm^2 C. 600 cm^2

B. 560 cm^2 D. 640 cm^2

11. Pengumpulan data dengan pengamatan langsung pada objek yang diteliti disebut .....

A. Studi kasus C. Wawancara

B. Observasi D. Kajian pustaka

12. Berikut tabel jenis hewan yang dipeternakan Pak Amin

Jenis Hewan	Jumlah
Ayam	40
Kambing	20
Sapi	10
Bebek	30

Berdasarkan tabel diatas jenis hewan yang paling banyak dipelihara Pak Amin adalah .....

A. Ayam B. Kambing C. Sapi D. Bebek

13. Daftar nilai siswa

70	80	80	90	70
100	60	70	80	70

Siswa yang memdapat nilai 80 ada..... anak

A. 2 B. 3 C. 4 D. 5

14. Daftar pengujung perpustakaan dalam seminggu terakhir

Senin	Selasa	Rabu	Kamis	Jumat	Sabtu
36	48	55	45	32	66

LIVEWORKSHEETS

Banyak pengunjung hari selasa, kamis dan jumat adalah .....

A. 93 C. 125

B. 103 D. 148

15. Berikut adalah daftar nilai matematika 20 siswa kelas IV

60	70	70	100	90	80	70	80	60	80
70	90	100	80	70	80	70	70	60	90

Tabel yang sesuai dengan data diatas adalah ....

A.

Nilai	Jumlah
60	4
70	7
80	5
90	3
100	2

C.

Nilai	Jumlah
60	3
70	6
80	5
90	3
100	2

B.

Nilai	Jumlah
60	3
70	7
80	4
90	3
100	2

D.

Nilai	Jumlah
60	3
70	7
80	5
90	3
100	2

16. Berikut hasil penjualan ikan yang disajikan dalam diagram

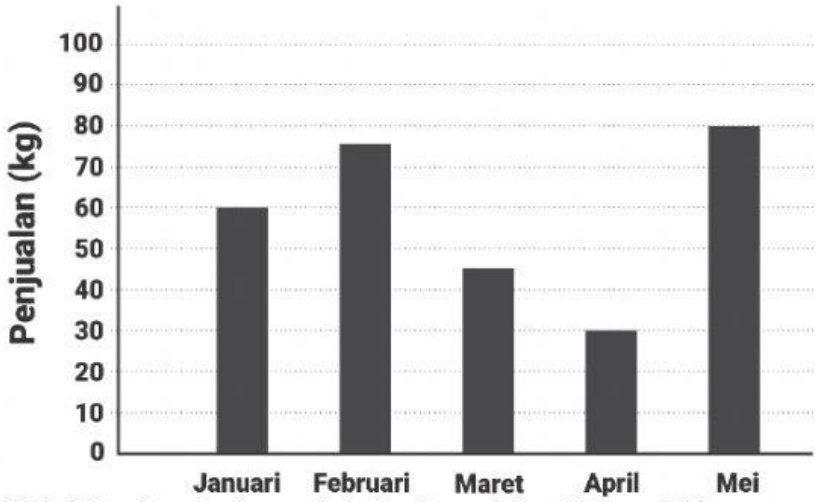

Selisih hasil penjualan pada bulan Januari dan Maret adalah .....

A. 15 C. 25

B. 20 D. 30

LIVEWORKSHEETS

17. Dalam sebuah kelas terdiri dari 20 siswa. Tinggi badan 136 - 140 cm ada 4 anak, 141 – 145 ada 8 anak, 146 – 150 ada 6 anak, dan 151 – 155 ada 2 anak. Diagram batang berikut yang sesuai adalah .....

A.

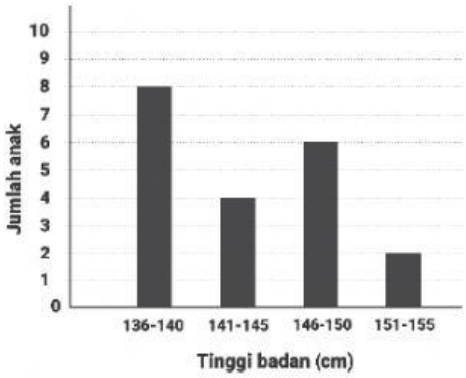

C.

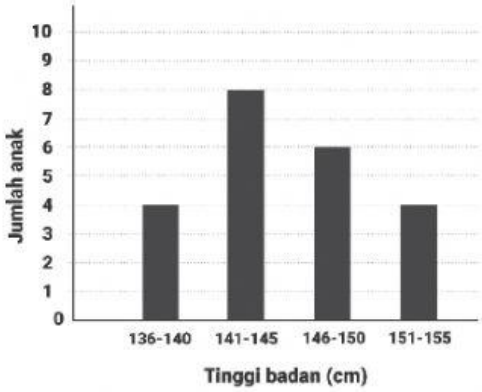

B.

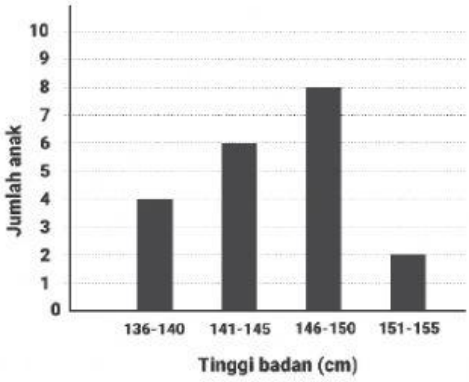

D.

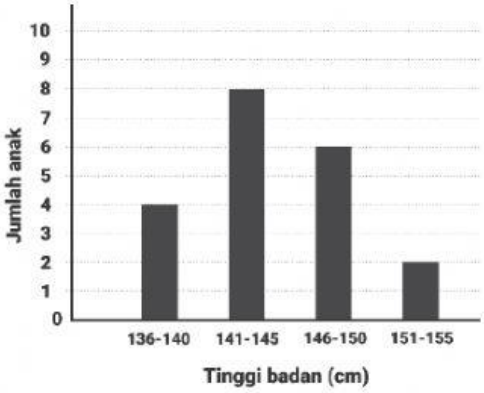

18. Berikut adalah tabel pegawai di PT Humani berdasarkan umur.

Umur	Jumlah
16 - 20	12
21 - 25	15
26 - 30	18
31 - 35	22
36 - 40	8
41 - 45	5

Jumlah pegawai yang berumur 21 – 35 adalah .....

A. 33

B. 45

C. 55

D. 63

LIVEWORKSHEETS

19.

Bulan	Hasil Penjualan
Januari	
Februari	
Maret	
April	
Mei	
Juni	

Keterangan : = 10

Banyak penjulan pada bulan Februari dan Mei adalah .....

A. 80 C. 100

B. 90 D. 110

20. Berikut grafik penjualan ikan dalam kolam

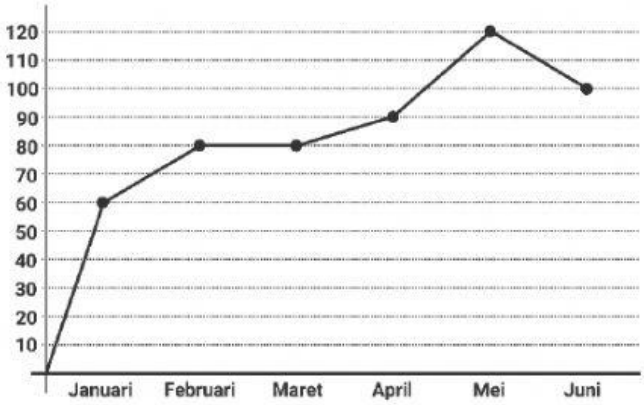

Jumlah kenaikan penjualan dari januari ke maret adalah .....

A. 15 kg C. 25 kg

B. 20 kg D. 30 kg

LIVEWORKSHEETS

21. Intan mempunyai 2 buah kubus dengan volume 6.859 cm^3 dan 10.648 cm^3. Berapa selisih panjang sisi kubus Intan?

22. Hitunglah volume bangun berikut !

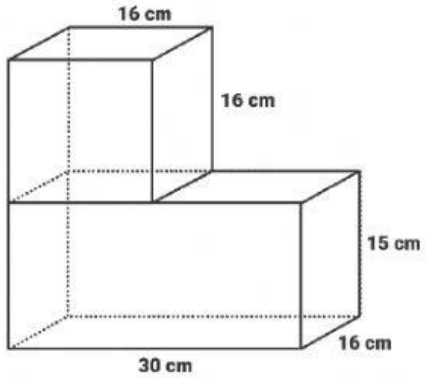

23. Hitunglah luas jaring – jaring kubus yang diketahui volume kubus 729 cm^3!

24. Perhatikan gambar berikut !

Jumlah pengunjung pantai Tampora pada hari Rabu adalah .....

25.

Tingkat Pendidikan	Jumlah
TK	
SD	
SMP	
SMA	

mewakili 20 orang

Banyak siswa SD adalah ……

LIVEWORKSHEETS