الْوَحْدَةُ 6

الْكُسورُ الْعَشْرِيَّةُ وَالْعَمَلِيّاتُ عَلَيْها

أَسْتَعِدُّ لِدِراسَةِ الْوَحْدَةِ

أعبر عن الجزء المظلَّل في كلٍّ ممَّا يأتي بالكسور العادية والكسور العشرية:

1
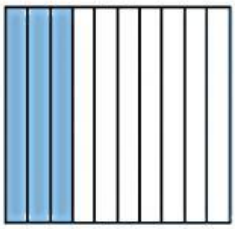
= =

2

= =

3
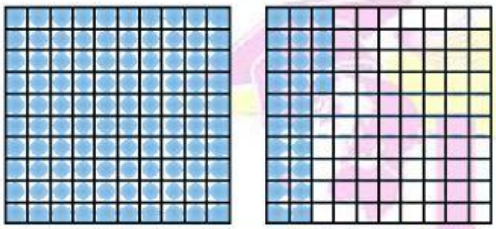
= =

4


= =

أكمل الجدول الآتي:

الصيغة القياسية	الصيغة التحليلية	الصيغة اللفظية
3.16		
	$0.08 + 0.3 + 6$	
		ثلاثة وخمسون من مئة
	$\frac{1}{10} + \frac{9}{100}$	

احدّد القيمة المنزلية للرقم **6** في كل عدد ما يلي:

5 1.06 6 6.01 7 4.16 8 5.67

أكتب الرمز(> أو < أو =) في ▢ لتصبح كل جملة مما يأتي صحيحة :

9 12.93 ▢ 12.39 (= / > / <)

10 5 ▢ 4.55 (= / > / <)

11 3.04 ▢ 3.55 (= / > / <)

12 6.5 ▢ 7.4 (= / > / <)

LIVEWORKSHEETS