1 **Parašykite, kokio didumo kampą sudaro laikrodžio rodyklės, kai laikrodis rodo**

a) 6.00 val. – _____;

b) 9.00 val. – _____;

c) 15.00 val. – _____;

d) 16.00 val. – _____.

2 **Apskaičiuokite nežinomų kampų didumą.**

a)

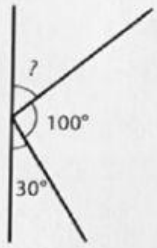

Ats.: _____

b)

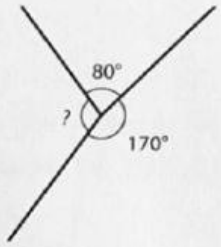

Ats.: _____

c)

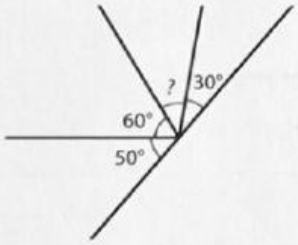

Ats.: _____

d)

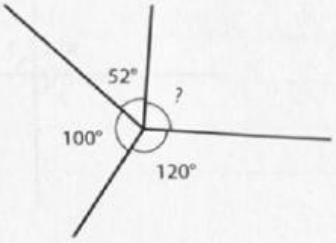

Ats.: _____

3 **Ištiestinį kampą *ABC* dalija spinduliai *BM* ir *BH* į kampus taip, kad ∠*ABM* = ∠*CBH*, ∠*MBH* = 100°. Apskaičiuokite kampų *ABM* ir *CBH* didumą.**

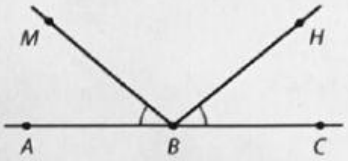

∠ABM =

∠CBH =

4 **80° kampą dalija spindulys, išeinantis iš kampo viršūnės, į du kampus. Vienas kampas 3 kartus didesnis už kitą. Apskaičiuokite abiejų kampų didumą.**

5 **Apskaičiuokite kampų didumą.**

a)

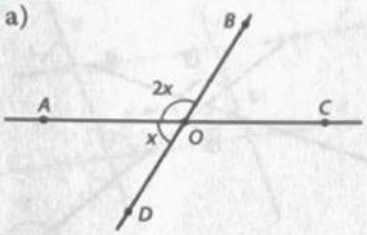

b)

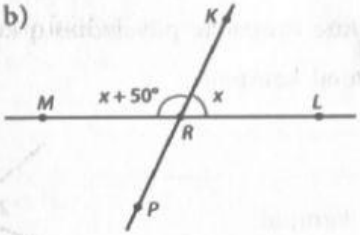

∠AOB =	∠COD =	∠MRK =	∠KRL =
∠BOC =	∠AOD=	∠LRP =	∠MRP =

6 **Kampai *1* ir *2* yra gretutiniai. Parašykite, koks yra *1* kampo arba atitinkamai *2* kampo didumas, kai**

a) ∠*1* = 95°, ∠*2* = _____

b) ∠*2* = 105°, _____

c) ∠*2* yra tris kartus didesnis už ∠*1*, _____

d) ∠*2* yra 4° didesnis už statųjį, _____

LIVEWORKSHEETS

7 **Įrašykite tinkamą žodį, su kuriuo kiekvienas teiginys būtų teisingas.**

a) Bukojo kampo gretutinis kampas yra _____.

b) Smailiojo kampo gretutinis kampas yra _____.

c) Stačiojo kampo gretutinis kampas yra _____.

d) Smailiojo kampo kryžminis kampas yra _____.

e) Stačiojo kampo kryžminis kampas yra _____.

f) Bukojo kampo kryžminis kampas yra _____.

8 **Apskaičiuokite *1, 2, 3* ir *4* kampo didumą.**

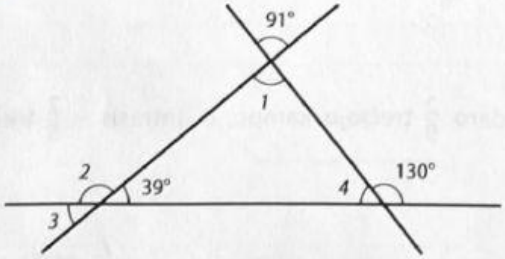

9

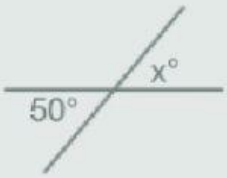

x = ☐

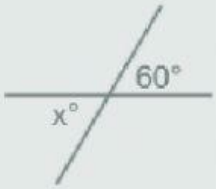

x = ☐

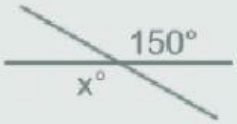

x = ☐

x = ☐

x = ☐

x = ☐

LIVEWORKSHEETS