I.T.I. FRANCISCO JOSE DE CALDAS I.E.D.
Grado primero 2023
PENSAMIENTO MATEMÁTICO

Decenas

1. En cada conjunto cuenta cuántas decenas hay y si sobran o no elementos (unidades). Completa las tablas. Observa el ejemplo.

¿Cuántas decenas hay?	¿Cuántas unidades sobran?
Decenas	**Unidades**
1	3

Conjunto de enanos

¿Cuántas decenas hay?	¿Cuántas unidades sobran?
Decenas	**Unidades**

Conjunto de



¿Cuántas decenas hay?	¿Cuántas unidades sobran?
Decenas	**Unidades**

Conjunto de

Profe: AngélicaR.

LIVEWORKSHEETS



¿Cuántas decenas hay?	¿Cuántas unidades sobran?
Decenas	**Unidades**

Conjunto de

¿Cuántas decenas hay?	¿Cuántas unidades sobran?
Decenas	**Unidades**

Conjunto de



¿Cuántas decenas hay?	¿Cuántas unidades sobran?
Decenas	**Unidades**

Conjunto de

¿Cuántas decenas hay?	¿Cuántas unidades sobran?
Decenas	**Unidades**

Conjunto de

Profe: AngélicaR.

LIVEWORKSHEETS