BANGUN RUANG

A. Perhatikan Video Berikut !

B. KERJAKAN SOAL DI BAWAH INI!

1. Nama bangu ruang di bawah ini adalah ....

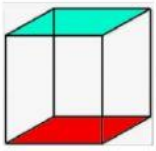

a. Kubus
b. Prisma
c. Limas
d. Tabung

2. Rumus untuk mencari volume balok yang benar adalah ....

a. p x l x t
b. p x l + t
c. 2 x p x l x t
d. 2 x p x l + t

3. Pilihlah nama yang sesuai dengan bangun di bawah ini !

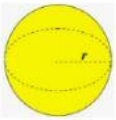

4. Tariklah Garis ke jawaban yang benar !

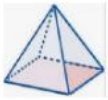

Balok

Limas

Prisma segitiga

5. Pindahkan kotak yang sesuai !

Nama bangun ruang	Rumus Volume	Pilihan
		P x L x T
		S x S x S
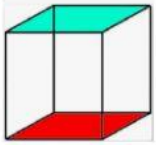		$\pi \, x \, r^2 \, x \, t$

LIVEWORKSHEETS