## Mata Kuliah Inovasi Pembelajaran Matematika

# LATIHAN SOAL

1. Perhatikan gambar di bawah ini.

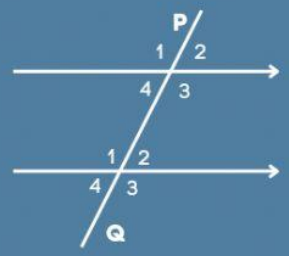


Jika besar sudut P1 = 150°, maka besar sudut Q4 adalah....

a. 60°
b. 50°
c. 40°
d. 30°
e. 20°

2. Perhatikan gambar berikut.

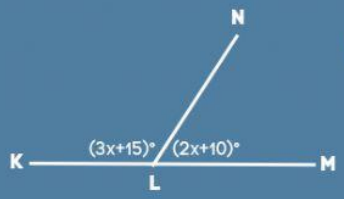


Besar pelurus sudut MLN adalah...

a. 108°
b. 110°
c. 135°
d. 200°
e. 220°

3. Perhatikan gambar berikut. Garis g sejajar dengan h dipotong garis k.

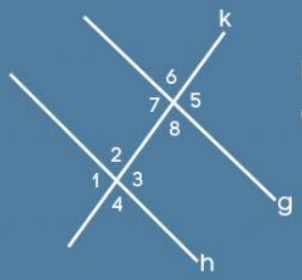


Pasangan sudut luar berseberangan adalah ...

a. ∠1 dan ∠5
b. ∠2 dan ∠5
c. ∠2 dan ∠4
d. ∠4 dan ∠5
e. ∠4 dan ∠6

"yuk scan qr ini untuk menyelesaikan soal diatas"

https://www.geogebra.org/classic

https://youtu.be/l_Ob4aVQ0XU

Pendidikan Matematika
Universitas Sultan Ageng Tirtayasa
2023

LIVEWORKSHEETS