Los intervalos

Un intervalo es la _____ que hay entre dos notas.
Se clasifican contando cuantas notas hay entre las dos, ambas incluidas.
Puede ser _____ si la segunda nota es más aguda o _____ si es más grave.

1. Di si estos intervalos son ascendentes o descendentes. Marca la opción correcta.

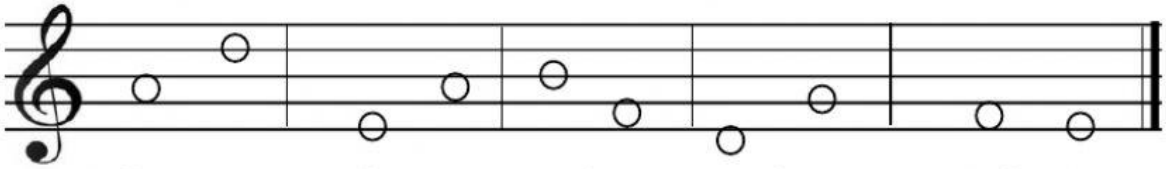

Asc.	Asc.	Asc.	Asc.	Asc.
Desc.	Desc.	Desc.	Desc.	Desc.

2. ¿Qué intervalo es? Escoge el número adecuado.



3ª	5ª	4ª	5ª	3ª	6ª
4ª	4ª	3ª	6ª	2ª	5ª

3. En este ejercicio ya debes decir el número y si es ascendente o descendente.



LIVEWORKSHEETS