المملكة العربية السعودية
وزارة التعليم
شركة أجيالنا التعليمية
إدارة التخطيط والتطوير والإشراف التربوي

وزارة التعليم
Ministry of Education

ورقة عمل

مدارس الفرسان الأهلية
Al Forsan National Schools

الفصل الدراسي	الاول	المادة	رياضيات 2	الدرس	شبه المنحرف

اسم الطالب		الفصل		الدرس	

1) اختر الإجابة الصحيحة :

1 الشكل الرباعي الذي فيه ضلعين متقابلين متوازيين يكون

أ معين | ب مستطيل | ج شبه منحرف | د متوازي أضلاع

2 الشكل المقابل يسمى

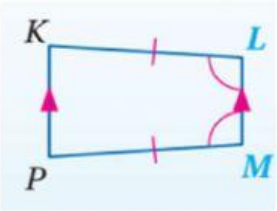

أ معين | ب مستطيل | ج مربع | د شبه منحرف

3 من الشكل المقابل $m\angle D$ تساوي

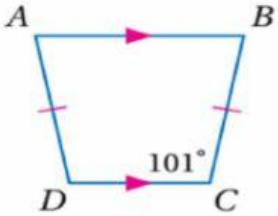

أ 101° | ب 79° | ج 10° | د 180°

4 الشكل التالي شبه منحرف متساوي الساقين اذا كان

VS قطعة متوسطة

QR=7 , UT= 11

فان طول ..... = VS

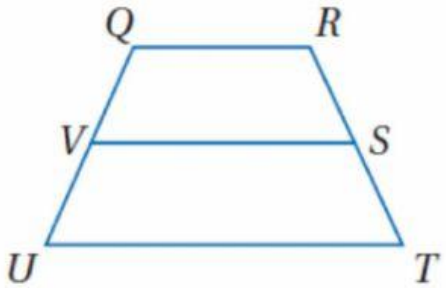

أ 9 | ب 8 | ج 12 | د 16

5 الشكل التالي شبه منحرف متساوي الساقين اذا كان

VS قطعة متوسطة

QR=4 , VS= 8

فان طول ..... = UT

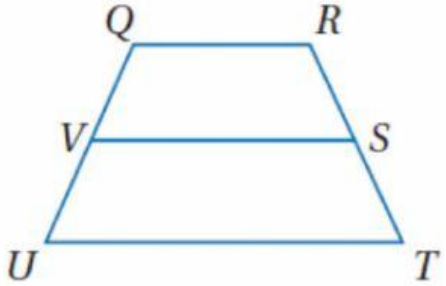

أ 8 | ب 10 | ج 12 | د 4

معلم المادة	ناصف احمد	المشرف التربوي	ا/ محمد جاب الله