ورقة عمل : خصائص الحياة

اسم الطالبة / .....

*حددي مراحل التعاقب الأولي بوضع الأرقام التالية في موقعها الصحيح :

5 4 3 2 1



(small bushes)



(bare sand)

(coastal pine forest)

(carex and grasses)

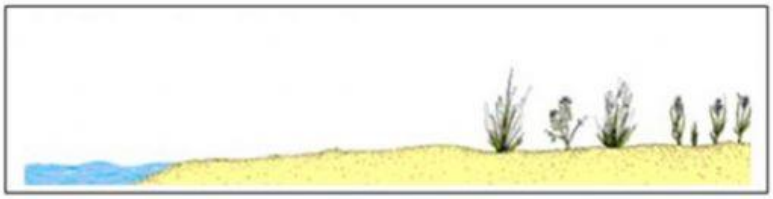

(dunes pioneer vegetation)

إعداد المعلمة / زهراء البردوي

LIVEWORKSHEETS