Növekvő sorba rendezés gyakorlása 1

1. Melyik számnak a számképét látod? Írd be a számot a számkép fölé!!

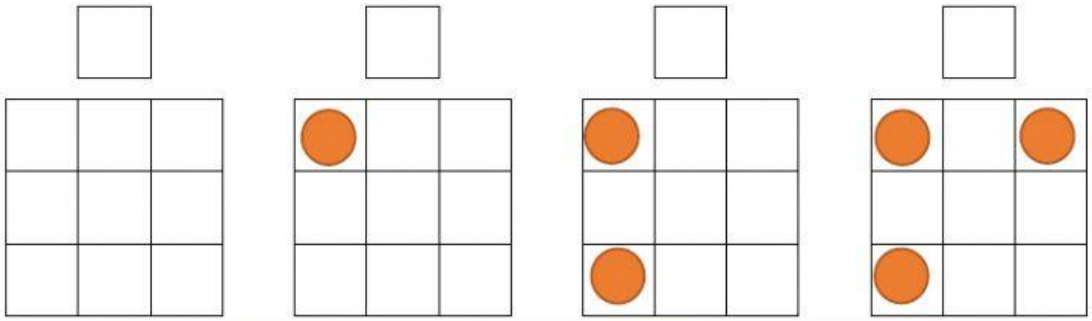

2. Tedd növekvő sorba a számokat!

1 0 3 2

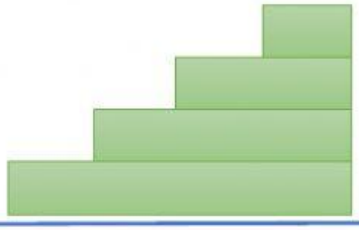

3. Tedd növekvő sorba a számokat!

0 3 2

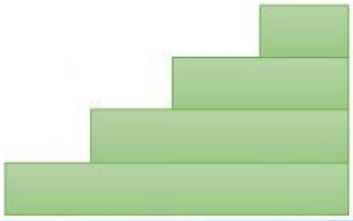

4. Tedd növekvő sorba a számokat!

1 0 2



5. Tedd növekvő sorba a számokat!

2 1 3

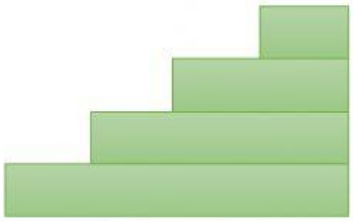

LIVEWORKSHEETS