Κλάσμα ως μέρος μιας επιφάνειας

1. Τι μέρος του τετραγώνου αναπαριστά το A, B, C, και D;

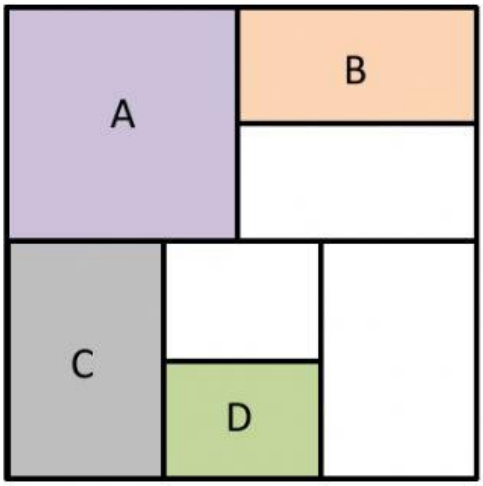

A= ___ B= ___ C= ___ D= ___

2. Τι μέρος του ορθογωνίου αναπαριστά το A, B, C, και D;

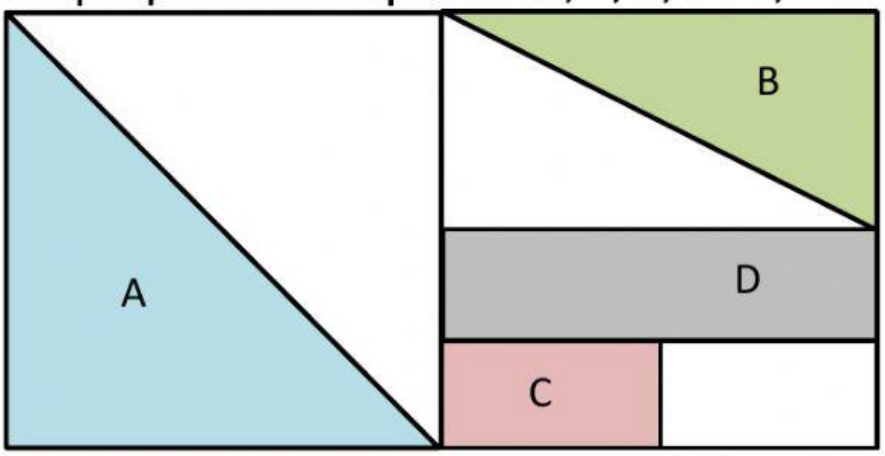

A= ___ B= ___ C= ___ D= ___

Free Math Sheets, Math Games and Math Help
MATH-SALAMANDERS.COM

3. Τι μέρος του ορθογωνίου αναπαριστά το A, B, C, D;

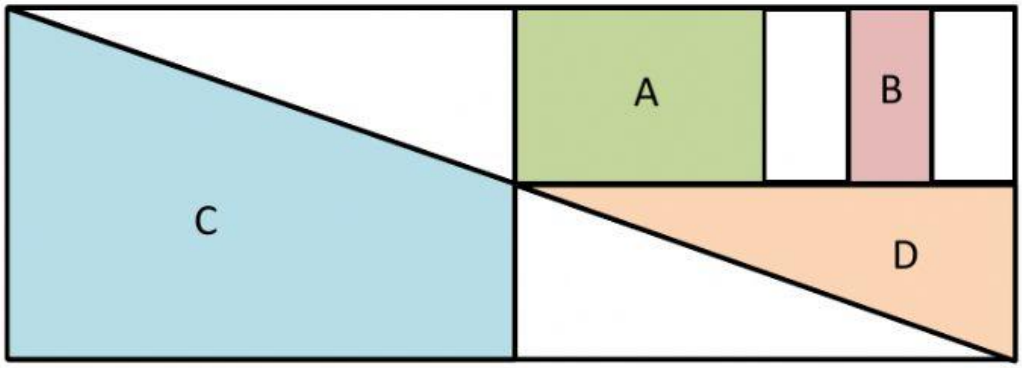

A = ___ B = ___ C = ___ D = ___

4. Τι μέρος του ορθογωνίου αναπαριστά το A, B, C, D και E;

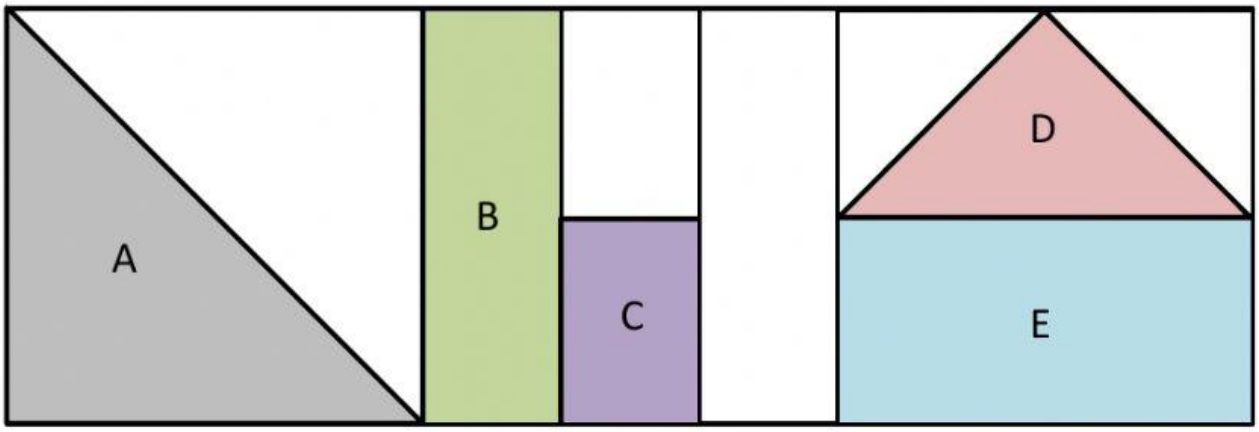

A = ___ B = ___ C = ___ D = ___ E = ___

Free Math Sheets, Math Games and Math Help
MATH-SALAMANDERS.COM