שם התלמיד/ה : _____

מבחן שטח מעגל

.1

קוטר = 10 ס"מ

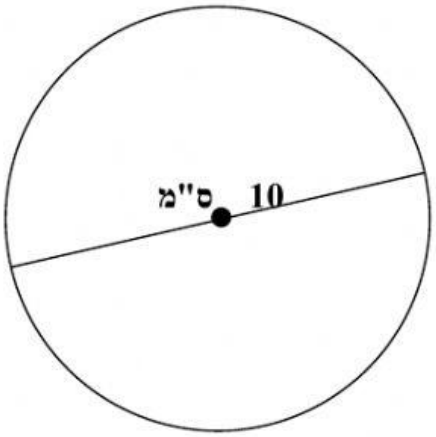

שטח העיגול : _____

.2

רדיוס = 4 ס"מ

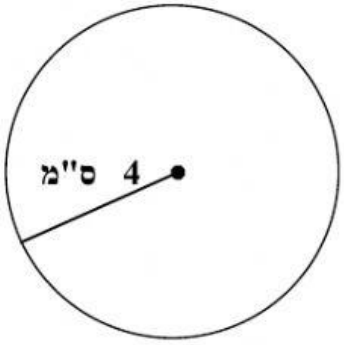

שטח העיגול : _____

3. בשרטוט שלפניכם רדיוס המעגל הקטן 5 ס"מ ורדיוס המעגל הגדול 7 ס"מ .

חשבו :

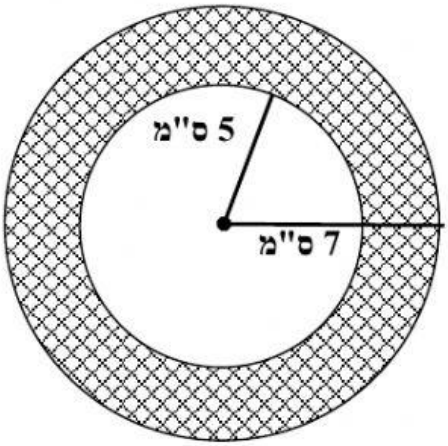

שטח העיגול הקטן : _____

שטח העיגול הגדול : _____

שטח הטבעת : _____

4.חשבו את שטח הצורה

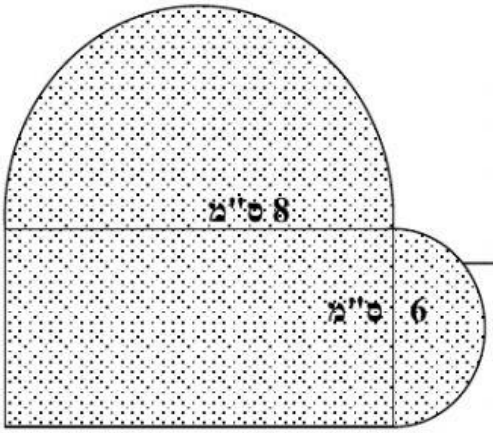

שטח : _____

5. חשב את השטח הצבוע



12 ס"מ

שטח הריבוע : _____

שטח העיגול : _____

שטח הצבוע :_____