REKA BENTUK DAN TEKNOLOGI
TAHUN 5

NAMA : _____
TARIKH : _____

KENALI ALATAN JAHTAN

Padankan alatan jahitan yang berikut dengan fungsinya yang betul.

(a) 

(b)

(c) 

(d)

(e) 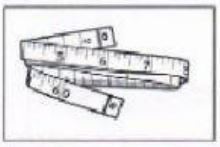

(f)

(g)

(h) 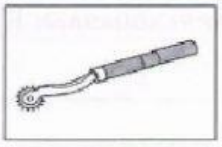

(i)

(j) 

Memotong kertas.
Menetas dan menanggalkan jahitan.
Mengukur dan menanda pola.
Mengukur fabrik dan mengambil ukuran badan.
Memindahkan tanda pola menggunakan roda surih.
Menjahit fabrik.
Memotong fabrik atau kain.
Memindahkan pola pada fabrik.
Menyemat pola pada fabrik.
Membuat tanda pada fabrik.