PEMBULATAN HASIL PENGUKURAN PANJANG DAN BERAT

Nama : _____ Kelas : 4C

1. Bulatkan hasil pengukuran Panjang berikut ke cm terdekat!

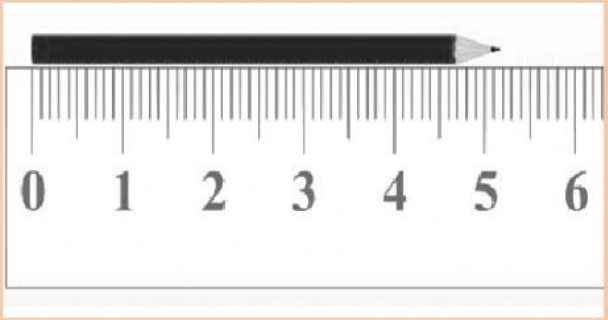

cm

cm

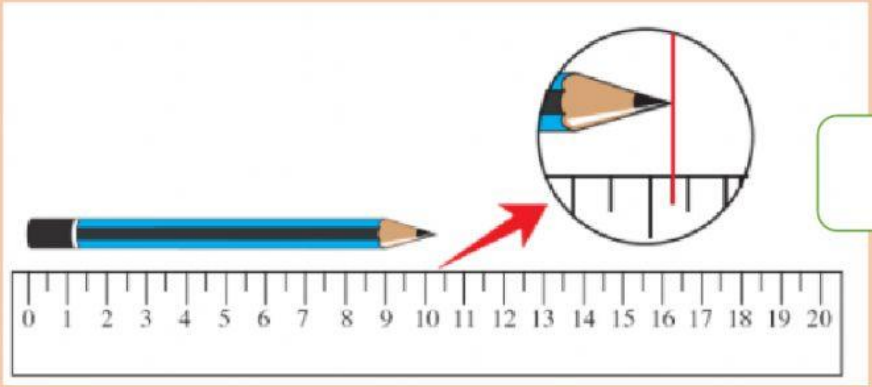

cm

2. Tinggi badan Andi 102,7 cm. Jika dibulatkan ke satuan terdekat Tinggi Andi adalah _____cm
3. Panjang buku gambar 32 cm lebih 4 mm. Jika dibulatkan ke satuan terdekat Panjang buku gambar adalah _____cm
4. Karena tidak ada penggaris, Bedu mengukur Panjang meja dengan jengkal. Jika panjang meja 5 jengkal dan setiap jengkal tangan bedu panjangnya 10,6 cm. Dengan menggunakan konsep pembulatan, maka Panjang meja adalah sekitar _____cm

5. Bulatkan ke Kg terdekat!

6. Ibu membeli 2 Kg lebih 7 gram telur. Jka dibulatkan menjadi _____ Kg

7. Hasil pembulatan ukuran berat pada gambar adalah _____Kg



8. .



a. Hasil pembulatan berat 1 semangka adalah _____Kg

b. Dengan menggunakan konsep pembulatan, taksiran berat 4 semangka adalah _____Kg