UNIDAD EDUCATIVA MONTESSORI

EVALUACIÓN DIAGNÓSTICA

Curso: 4to. A – B - C

INSTRUCCIÓN: ***Lee atentamente cada instrucción y luego resuelve.***

CANTIDADES

1. Escribe el número que representan las cantidades:

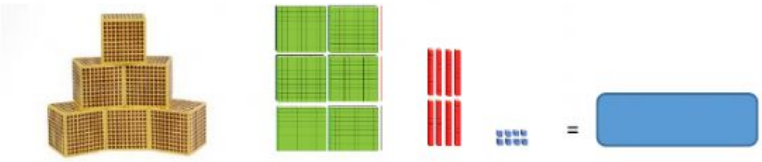

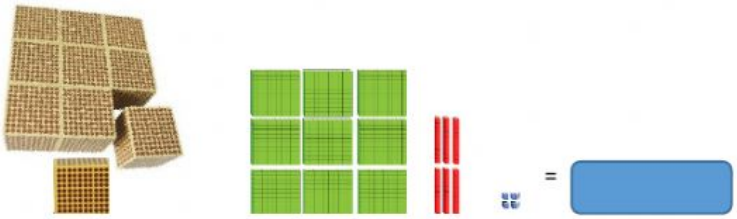

LECTURA DE NÚMEROS

2. Escribe en forma literal los siguientes números:

a) 2 .....
b) 6 .....
c) 15 .....
d) 263 .....
e) 5003 .....
f) 15209 .....

ORDENACIÓN DE CANTIDADES

3. Ordena los números de mayor a menor, arrastrándolos.

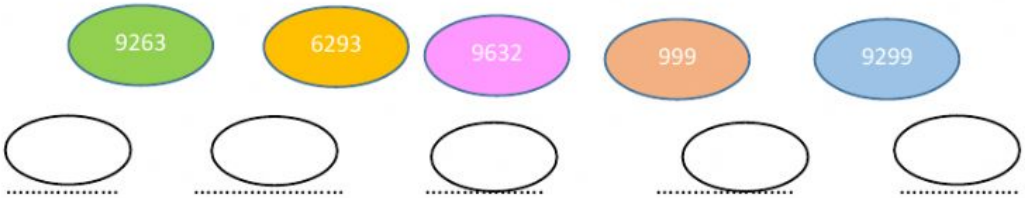

+SERIE DIRECTA

4. Cuenta de 3 en 3 desde el 1

1 - 4 - 7 ....

SERIE INVERSA

5. Descuenta de 3 en 3 desde el 100

100 – 97 - 94 ....

CÁLCULO MENTAL

6. Escribe solo las respuestas de las operaciones que la maestra dictará:

a) .....
b) .....
c) .....
d) .....

CÁLCULO ESCRITO

7. Calcula y escribe la respuesta:

a) 5 + 3 = ...
b) 15 – 7 = ...
c) 37 + 50 = ...
d) 33 – 20 = ...
e) 4 x 3 = ...
f) 27 : 3 = ...
g) 200 + 500 = ...

OPERACIONES

8. Resuelve las operaciones:

A		3	4	8				B		5	6	8				C		5	3	7				D	2	4	8	3	
	+	1	3	4					-	2	8	3					x			4									

PROBLEMAS

9. Tengo una caja de chocolates con 3 filas de chocolates cada fila tiene 10 chocolates. ¿Cuántos chocolates hay en la caja?

DATOS	OPERACIÓN	RESPUESTA

COMPRENSIÓN DERECHA IZQUIERDA

10. Arrastra la flor a la mano izquierda del niño y el lápiz a la mano derecha del niño