1. Baik pildyti įdomiuosius kvadratus.

4		10
	8	
		12

13	8	3
5		

17		12
	16	
20		

2. Virš kiekvieno įdomiojo kvadrato parašytas skaičius, kuris gaunamas sudėjus kvadrato skaičius bet kuria kryptimi. Baik pildyti įdomiuosius kvadratus.

30

14		8
	12	

21

	7	4
5	8	

18

	8	7
5	4	
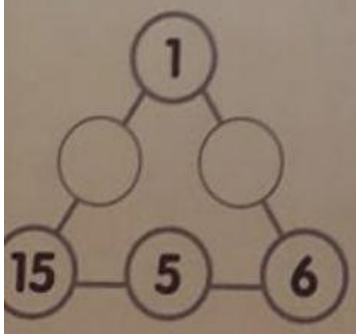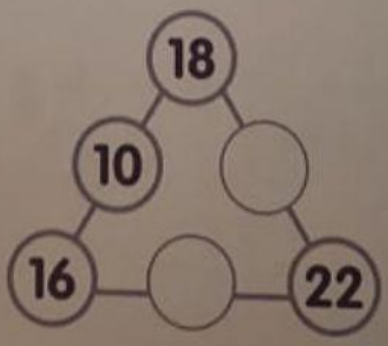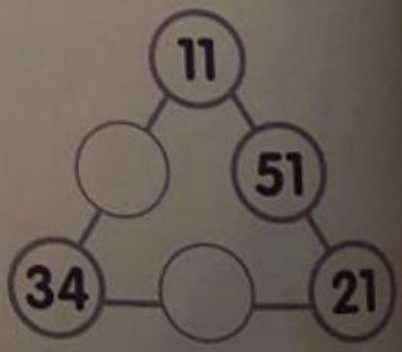
3. Trikampio kiekvienos kraštinės skaičių suma yra tas pats skaičius. Rask ir įrašyk trūkstamus skaičius.