REPASO DECIMALES

1. Realiza las siguientes operaciones en tu cuaderno y luego escribe el resultado (en las divisiones no olvides sacar 3 decimales si es posible).

- **34,79 + 2.870,3 + 509 =** _____
- **978,08 + 91,6 + 7 =** _____
- **80.345,3 - 7.638,54 =** _____
- **754,606 - 45,98 =** _____
- **86,124 x 3,7 =** _____
- **1.507,5 x 1,28 =** _____
- **0,7 x 0,08 =** _____
- **73,45 x 6 =** _____
- **8973 : 4 =** _____
- **765,51 : 35 =** _____
- **28 : 41 =** _____
- **5.087, 6 : 5 =** _____

2. ¿Qué número es?

- **8 UM + 5 C + 7 U + 4 c** → _____
- **9 D + 6 U + 1 d + 9 m** → _____
- **5 DM + 3 d** → _____
- **2 CM + 7 d + 1 c + 6 m** → _____

3. Descompón los siguientes números decimales

NÚMERO	UMI	CM	DM	UM	C	D	U	d	c	m
6.587,021										
570.058,3										
9.071.003,09										

4. Redondea los siguientes números a la <u>unidad</u>

15,8 →	6,1 →	3,08 →	695,32 →
7,81 →	0,53 →	16,9 →	1.589,7 →

5. Redondea los siguiente números a la <u>décima</u>

1,83 →	6,71 →	3,08 →	69,532 →
7,19 →	0,93 →	6,91 →	158,97 →

6. Redondea los siguientes números a la <u>centésima</u>

1,839 →	6,189 →	3,644 →	6,953 →
0,817 →	9,532 →	6,945 →	89,799 →

7. Escribe los siguientes números ordenados de <u>mayor</u> a <u>menor</u>

3,8 - 3,09 - 3,79 - 4 - 3,91 - 3 - 3,81

> > > > > >

8. Fíjate en el peso de los siguientes dibujos y calcula la media.



Dora
10,1 kg

Gambol
5,4 kg



Bart
9 kg

Pocoyo
4,9 kg



Jake
9,3 kg

La media (recuerda redondear a la décima el resultado) es:

¿Quién está por encima? DORA GAMBOL BART POCOYO JAKE

¿Y por debajo? DORA GAMBOL BART POCOYO JAKE