NAMA: _____ KELAS :_____

TAJUK: KEMAHIRAN SAINTIFIK (MEGUKUR DAN MENGGUNAKAN NOMBOR)

TAHUN : 3

Sila tonton video ini sebelum menjawab soalan



NOTA RINGKAS:

Contoh **alat piawai** adalah seperti:

Pita pengukur **pembaris**

Unit Piawai: milimeter (mm), sentimeter (cm) dan meter (M)

Tujuan: untuk mengukur panjang

Unit Piawai: milligram (mg), gram (g), kilogram (KG)

Penimbang **Tujuan: mengukur jisim**

Unit Piawai: saat , minit, jam

Jam tangan **jam randik** **jam dinding** **Tujuan: mengukur masa**

termometer digital

termometer makmal

Unit Piawai: celcius (c)

Tujuan: mengukur suhu

Bikar

silinder penyukat

Unit Piawai: mililiter (ml), liter (L)

Tujuan: mengukur isipadu cecair

Soalan:

A) Namakan peralatan yang sesuai digunakan untuk mengukur objek dibawah:

TERMOMETER

SILINDER PENYUKAT

JAM RANDIK

PENIMBANG

PEMBARIS

1

2

3



4

5

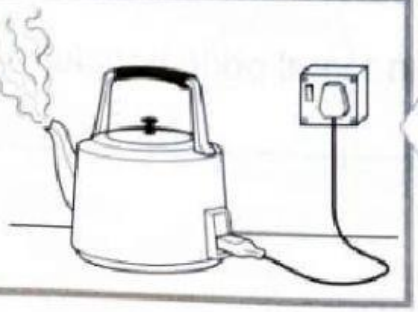

B) Padankan unit piawai yang digunakan untuk alat dibawah ini:

Kilogram (kg)

Sentimeter (cm)

Celcius (C)

minit

Mililiter (ml)

c) Isikan tempat kosong di bawah dengan jawapan yang betul.

1. **Termometer makmal digunakan untuk mengukur** _____
2. **Penimbang digital digunakan untuk mengukur** _____
3. **Jam randik digunakan untuk mengukur** _____
4. **Bikar digunakan untuk mengukur** _____
5. **Pita pengukur digunakan untuk mengukur** _____
6. **Adakah peralatan diatas membantu kita dalam mengukur (ya/tidak)**

   _____