# LOS FENÓMENOS DE LA ATMÓSFERA

1.- Identifica de qué aparato se trata:

Mide la cantidad de precipitaciones.

Mide la velocidad del viento.




Mide la temperatura.

Señala la dirección del viento.

2.- Resuelve:




1 Precipitación acompañada de rayos y viento.
2 Viento muy fuerte.
3 Precipitación en estado sólido.
4 Aire en movimiento.

3.- Marca la palabra intrusa.

| | | | | |
|---|---|---|---|---|
| tormenta | lluvia | veleta | nieve | granizo |

4.- Señala los que son fenómenos atmosféricos: