Examen invertebrats part 2

1. Arrastra el nom de les parts del animal al seu lloc corresponent:

abdomen	cap	antenes	extremitats
ales	tòrax	ulls	

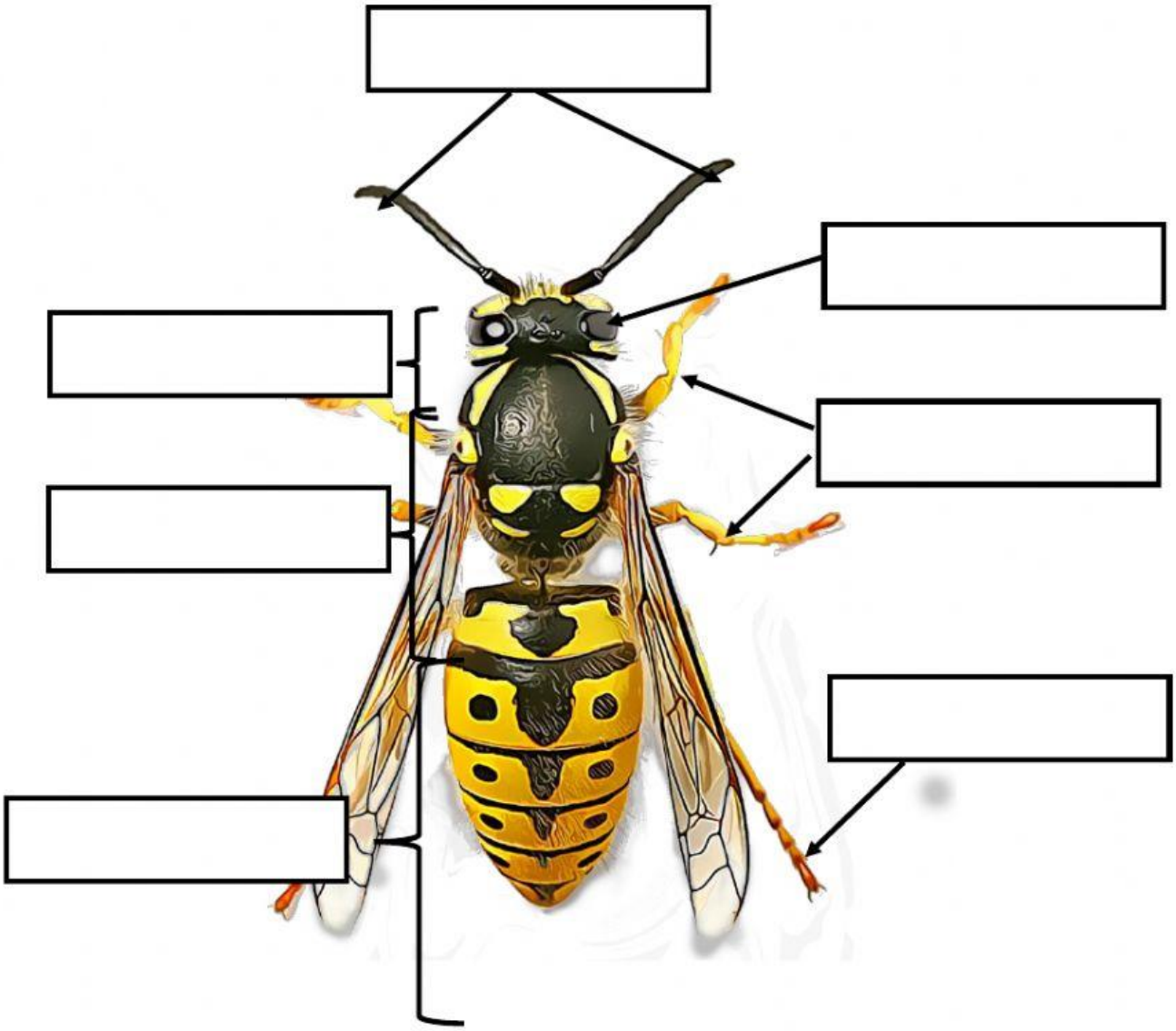

2. Arrastra el nom de les parts del animal al seu lloc corresponent:

cefalotòrax	extremitats	quelícers
abdomen	pedipalps	



3. Selecciona:

a) Tenen 6 potes

b) Són terrestres

c) Cacen amb l'ajuda d'una trampa que construeixen.

d) Tenen metamorfosi

e) Respiren per tràquees

f) Tenen 8 potes

g) Són majoritàriament aquàtics

h) Tenen 10 potes

i) Respiren per brànquies

4. A quin procés fa referència aquest dibuix? _____

Arrastra el nom de les parts del animal al seu lloc corresponent

pupa	ous	adult	oruga