LEMBAR KERJA PESERTA DIDIK (LKPD)

PEMERINTAH PROVINSI GORONTALO
DINAS PENDIDIKAN KEBUDAYAAN PEMUDA DAN OLAH RAGA
SMK NEGERI 1 MARISA
Alamat : Jln. Trans Sulawesi Desa Teratai Kec. Marisa Kab. Pohuwato-Gorontalo 96266

Mata Pelajaran : Komputer Dan Jaringan Dasar
Kelas / Prog. Keahlian : X (10 TKJ) Teknik Komputer Jaringan
Materi Pokok : Pengenalan & Perakitan Komputer

NAMA :

KELAS :

Bacalah media pembelajaran berikut sebelum mengerjakan soal!

BAGIAN-BAGIAN PERANGKAT KERAS KOMPUTER

SPESIFIKASI PERANGKAT KERAS KOMPUTER

I. Pilihlah salah satu jawaban yang paling tepat!

1. Yang bukan merupakan perangkat input adalah...
   a. Keyboard
   b. Joystick
   c. Barcode
   d. Monitor
   e. Touchpad
2. Yang bukan merupakan perangkat Output adalah...
   a. Printer
   b. Plotter
   c. Light Pen
   d. Monitor
   e. Proyektor
3. Papan rangkaian komputer tempat semua komponen elektronik computer terangkai disebut dengan…
   a. Keyboard
   b. Motherboard
   c. Casing
   d. Peripheral
   e. Faterboard
4. Apa nama lain dari media penyimpanan…
   a. Storage Device
   b. Input Device
   c. Peripheral Device
   d. Output Device
   e. Processing Unit Device
5. Dibawah ini yang termasuk media penyimpanan, kecuali…
   a. Flashdisk
   b. Harddisk
   c. Mouse
   d. Disket
   e. DVD

II. Letakan nama-nama perangkat keras komputer pada kolom gambar yang sesuai!

1.		
2.		
3.		

MONITOR

KEYBOARD

MOUSE

PRINTER

RAM

PROCESSOR

MOTHERBOARD

HARDISK

LIVEWORKSHEETS

4.		
5.		

III. Tariklah garis pada kotak yang memuat jawaban yang benar!



- PERANGKAT INPUT
- PERANGKAT OUTPUT
- PERANGKAT PROSES
- PERANGKAT PERIFERAL
- MEDIA PENYIMPANAN

IV. Tentukan nama-nama I/O Port pada Motherboard berikut sesuai dengan gambar yang benar!

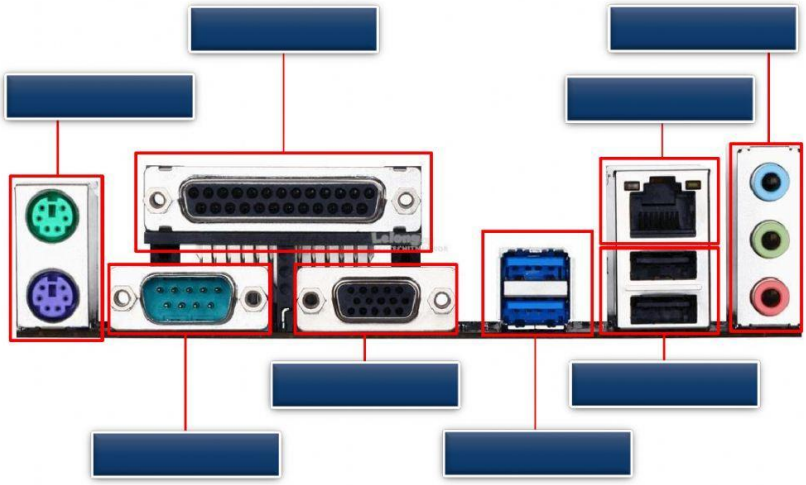

LIVEWORKSHEETS