NAMA MURID:

SEKOLAH KEBANGSAAN
SERI KEPAYANG
FAIR PARK, IPOH

Sains Tahun 6 :
MIKROORGANISMA

Cikgu Linda doakan anak-anak menjadi anak soleh / solehah yang Cemerlang, aamiiin.

A. Pilih jawapan yang betul, berdasarkan rajah-rajah dengan nama mikroorganisma di bawah.

- Bakteria
- Alga
- Protozoa
- Virus
- Fungi

		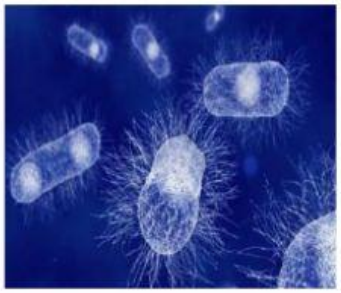

S.K 3.1 / S.P 3.1.1
Rujuk buku teks muka surat 21 - 23

By : Cikgu Linda-B

Sains Tahun 6 : MIKROORGANISMA

B. Suaikan rajah mikroorganisma di bawah dengan padanan maklumat yang betul.



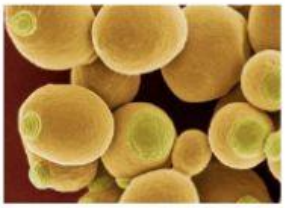

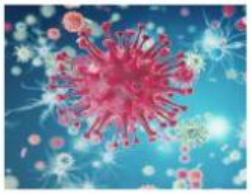

Ada antara mikroorganisma ini boleh dilihat dengan mata kasar dan ada sebahagiannya hanya boleh dilihat menggunakan kanta pembesar dan mikroskop.
Mikroorganisma ini lebih halus daripada mikroorganisma lain. Ia hanya dapat dilihat di bawah mikroskop elektron.
Mikroorganisma ini hidup di habitat yang berair seperti sungai, tasik dan kolam.
Mikroorganisma ini mempunyai sifat tumbuhan. Ia membuat makanannya sendiri melalui proses fotosintesis.
Mikroorganisma ini wujud dalam pelbagai bentuk saiz dan warna. Ia boleh terdapat dalam pelbagai persekitaran.

S.K 3.1 / S.P 3.1.3

Rujuk buku teks muka surat 21 - 23

By : Cikgu Linda-B