LEMBAR KERJA PESERTA DIDIK (LKPD) DIGITAL

NAMA SISWA :

KELAS :

NO ABSEN :

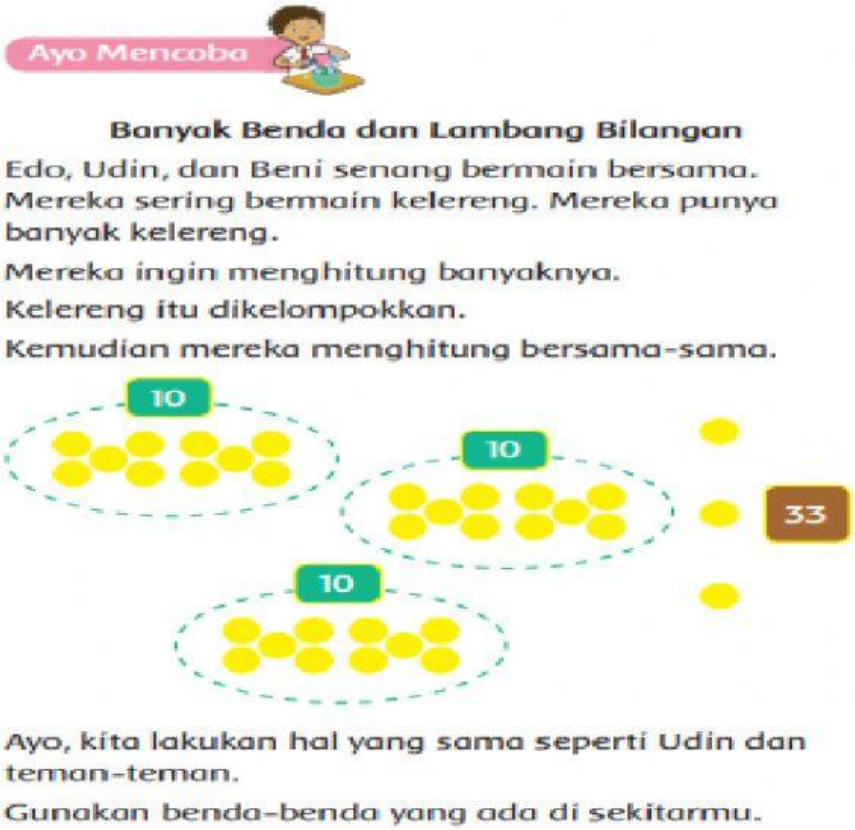

Selengkapnya kamu bisa pelajari Link Berikut

Untuk lebih jelas kamu bisa liat vidio youtube berikut tentang penjumlahan banyak benda

Pasangkan banyak benda dengan lambang bilangannya.



40



35



32



38

TULISLAH LAMBANG BILANGANNYA.

Berilah tanda silang pada jawaban yang benar di bawah ini.

1. 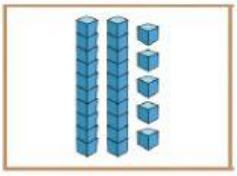

   Gambar diatas berjumlah ...

   a. 23

   b. 25

   c. 24

2. **38**

   Nama bilangan diatas adalah .....

   a. Tiga puluh enam

   b. Tiga puluh empat

   c. Tiga puluh delapan

3. "Dua puluh delapan" jika ditulis ....

   a. 38

   b. 32

   c. 36

Jika sudah selesai anak – anak bisa klik FINISH dan PILIH Via email agar nilai anak – anak bisa di cek oleh guru E – mail: srihandayani.sh125@gmail.com