Тиждень № ☐ **Урок №** ☐

(ім'я та прізвище)

Напиши дату та форму роботи (самостійна).

Знайди значення виразів.

360 : 90= ☐	70 · 8= ☐	270 : 30= ☐	560 + 340= ☐
180 : 20= ☐	50 · 5= ☐	800 : 400= ☐	650 – 290= ☐
490 : 70= ☐	420 : 6= ☐	300 : 5= ☐	640 : 80= ☐

Розкодуй шифр. Надрукуй відповідь: ☐ ☐ ☐ ☐.

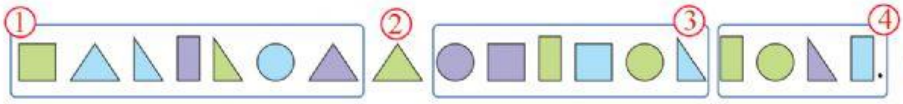

	○	□	△	▯	◺
	О	Д	–	М	Ф
	І	В	Е	Я	Л
	С	И	Н	Ь	Р



Доповни схему. Розв'яжи задачу.

Маса дельфіна — 50 кг, а маса тюленя у 3 рази більше.
Маса моржа у 4 рази більша, ніж маса тюленя і дельфіна разом.
Скільки всього важать морські мешканці ?

Дельфін — ☐ кг
Тюлень —?, у ☐ р. більше, ніж
Морж — ?, у ☐ р. більше, ніж

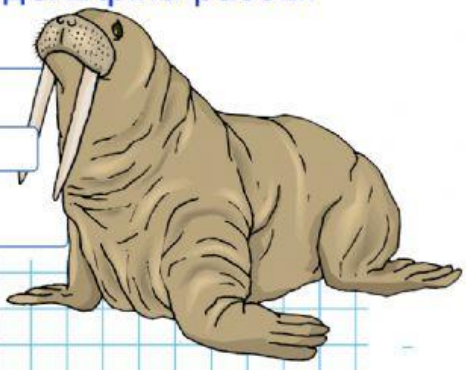

Розв'язання

Відповідь :

Bookik
Ostrovok