שטח והיקף ריבוע

תזכורת: בריבוע כל הצלעות שוות.



צלע x צלע =שטח ריבוע

צלע x 4 =היקף ריבוע

חשבו את שטחו של כל ריבוע (אל תשכחו לכתוב את יחידת המידה)



6 ס"מ

תרגיל:

תשובה:



4 מ"מ

תרגיל:

תשובה:



9 מ'

תרגיל:

תשובה:

חשבו את היקפו של כל ריבוע (אל תשכחו לכתוב את יחידת המידה)

3 ס"מ

תרגיל:

תשובה:

10 מ"מ

תרגיל:

תשובה:

5 מ'

תרגיל:

תשובה: