(ورقة عمل تفاعلية)

المادة : رياضيات

الصف : الثاني متوسط ( )

عنوان الدرس : مساحات أشكال مركبة٢

اسم الطالب :

١ / الشكل المكون من مثلثات وأشكال رباعية وأنصاف دوائر وأشكال أخرى ثنائية الأبعاد هو:

أ / الشكل المربع ب / الشكل المركب ج / الشكل الدائري

٢ / مساحة الشكل الذي أمامك = ...

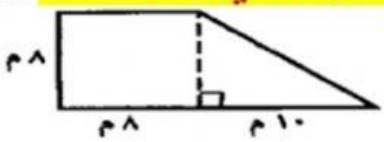

أ) ٥٦ م^{٢} ب) ١٠٤ م^{٢} ج) ١٤٤ م^{٢} د) ٢٥٦٠ م^{٢}

٣ / مساحة الشكل الذي أمامك = ...

(إذا علمت أن ط = ٣,١٤)

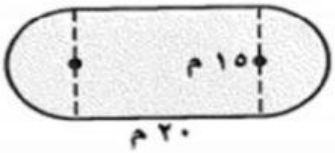

أ / ٤٧٦,٦ م^{٢} ب / ٥٦٠ م^{٢} ج / ٣٠٠ م^{٢}

٤ / مساحة الشكل الذي أمامك = ... سم^{٢}

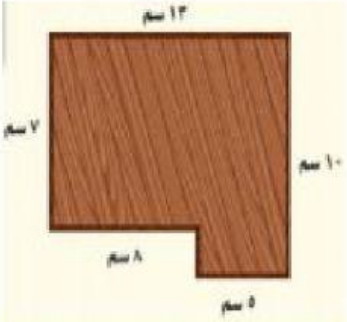

أ / ١٠٦ ب / ١٠٠ ج / ٦٠

٥ /

قَام سالمٌ بإلصاق ورق جدران على أحد جدران منزله. ما مساحة ورق الجدران الذي استعمله؟

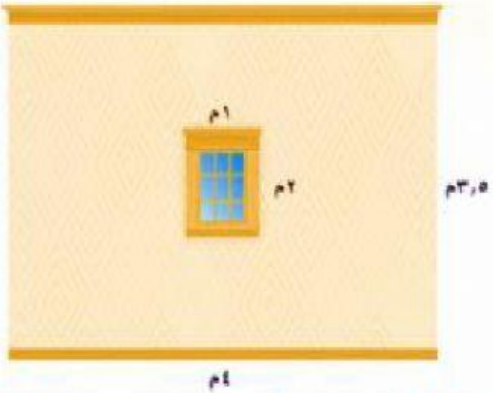

أ / ١٠ ب / ١٢ ج / ١٤

مع رجائى للجميع التوفيق و النجاح ،،، فلا تنسونى من دعواتكم ،،،