¡Qué lío con las figuras geométricas! ¿Podrías ayudarnos y unir cada figura con su palabra correspondiente?

Octógono

Triángulo



Rectángulo



Hexágono

Pentágono

Cubo



Círculo

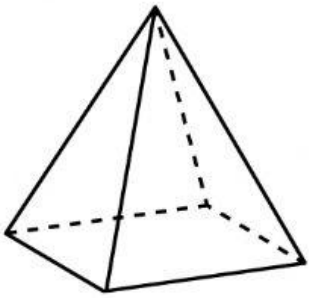

Pirámide

Cuadrado

Rombo