EXAMEN DE TECNOLOGÍA (A)

ALUMNO: _____ **CURSO: 1º GRUPO:** ___

Indica en la tabla siguiente los números de las vistas correspondientes a las piezas, teniendo en cuenta que la vista de Alzado se obtiene mirando la pieza en la dirección de la flecha (10 p.)

	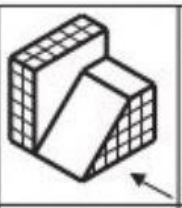				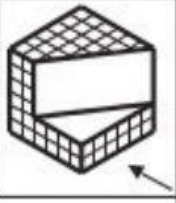	
ALZADO						
PLANTA						
PERFIL						


1


2


3


4


5


6


7


8


9


10


11


12


13


14


15


16


17


18