NAMA:

MARKAH

KELAS:

# MATEMATIK
## TINGKATAN 1
### BAB 1 : NOMBOR NISBAH

STANDARD PEMBELAJARAN 1.1.3 & 1.1.4

**1) Mewakilkan integer pada garis nombor** **2) Membanding dan menyusun integer**

1) Rajah menunjukkan suatu garis nombor.

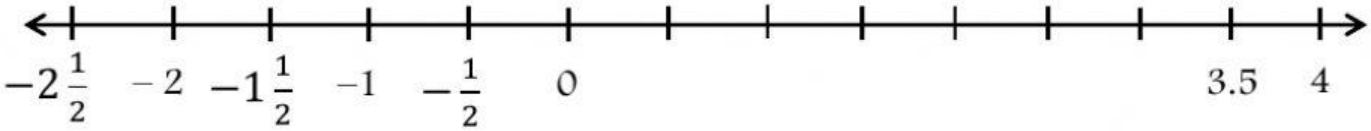


Berdasarkan rajah, pada ruang jawapan di bawah, nyatakan

| Integer | | Integer positif | | Integer negatif | |
|---|---|---|---|---|---|

2) Tentukan kedudukan integer berikut pada garis nombor yang diberi.

a) 0 , −4 , 4 , −8 , −20

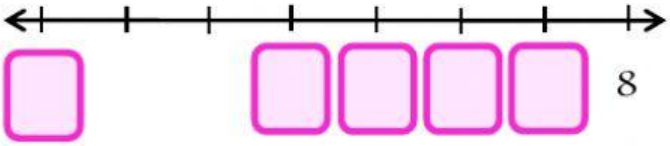


| Integer terkecil | | Integer terbesar | |
|---|---|---|---|

b) 5 , −10 , 15 , 25 , 0

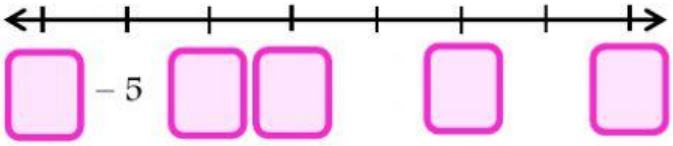


| Nilai terkecil | | Nilai terbesar | |
|---|---|---|---|

3) Isikan tempat kosong menggunakan pilihan jawapan dalam kotak di bawah.

−13 , 4 , −2 , 9 → −11 , ____ , ____ , 6

4) Banding dan susun semula suhu berikut mengikut tertib dengan bermula daripada suhu yang paling panas.

−3°C , 2°C , −5 °C , 6 °C → ____ , ____ , ____ , ____

LIVEWORKSHEETS