Sesión 12. Teorema de Pitágoras

Observe el trapecio mostrado en la figura. ¿Cuál es la medida en metros de la base?

A) 8
B) 33
C) 42
D) 64

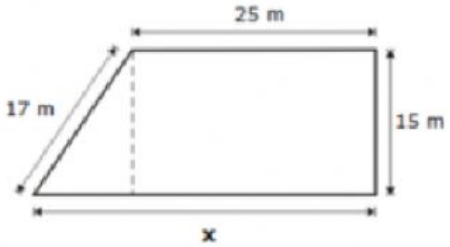

. Determine la longitud del segmento C en la siguiente figura:

A) $\sqrt{28}$
B) 6
C) 10
D) $\sqrt{260}$

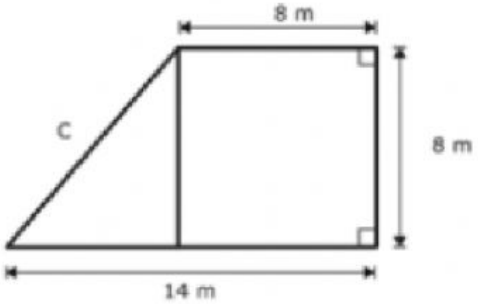

La figura muestra la posición de un jugador en la cancha de futbol. El jugador dispara desde el punto B hacia el punto A. ¿Cuál es la distancia, en metros, que recorre el balón?
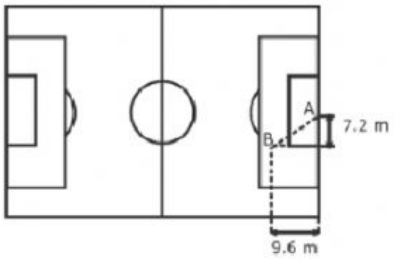
A) 8.31
B) 12.00
C) 14.40
D) 16.80