LATIHAN SOAL
RELASI DAN FUNGSI

Nama :

Kelsas :

A. Teka Teki Silang



Mendatar

4. Daerah lawan atau kawan
5. Pemasangan anggota himpunan A tepat satu kepada anggota himpunan B

Menurun

1. Pemasangan anggota himpunan anggota himpunan A kepada anggota himpunan B
2. Daerah asal
3. Daerah Hasil

B. Jawablah Soal berikut sesuai petunjuk

1. Dibawah ini yang *bukan* merupakan fungsi adalah...

a.

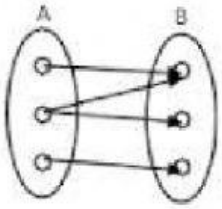

b.

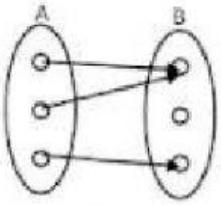

c.

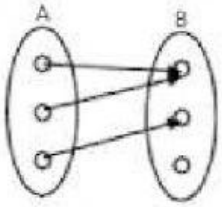

d.

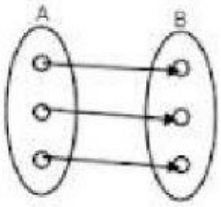

2. Dari diagram dibawah ini yang merupakan fungsi adalah… (jawaban boleh lebih dari satu pilihan)

i

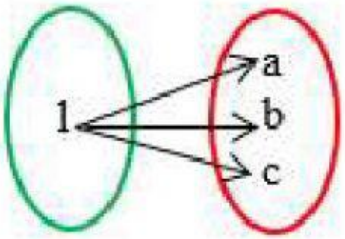

iii

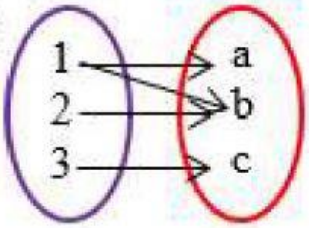

ii

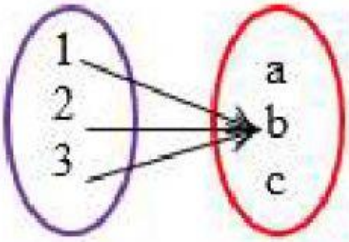

iv

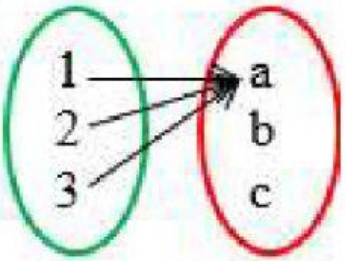

3. Diketahui diagram panah seperti berikut!

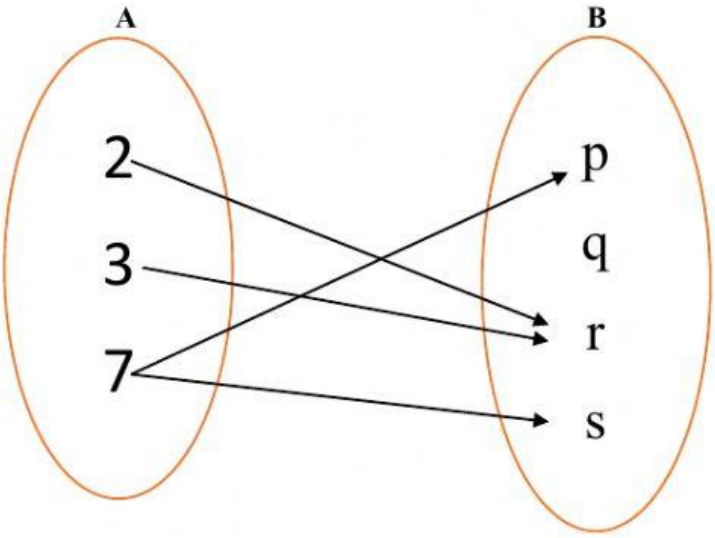

Tariklah pilihan dibawah kepada pernyataan dengan benar!

Domain dari diagram diatas adalah

Kodomain dari diagram diatas adalah

Range dari diagram diatas adalah

Pilihan

p, q, r, s

2, 3,7

p, r, s

Setelah menyelesaikan semua soal klik **FINISH**, kemudian klik **Check My Answers** dan langsung screenhoot nilai yang di perolah.