EL PERÍMETRO

Recuerda

El perímetro es la **suma** de lo que miden los lados de un polígono.

Calculamos el perímetro de un polígono **sumando** lo que mide cada lado.

1. Calcula el perímetro de estos polígonos.

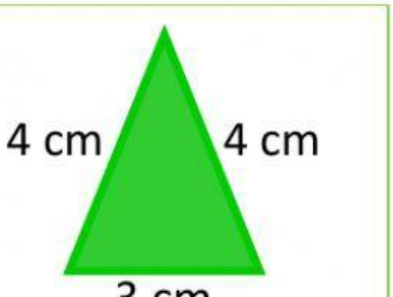

Perímetro= ____ cm

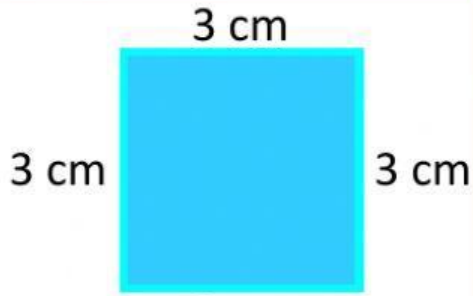

Perímetro= ____ cm

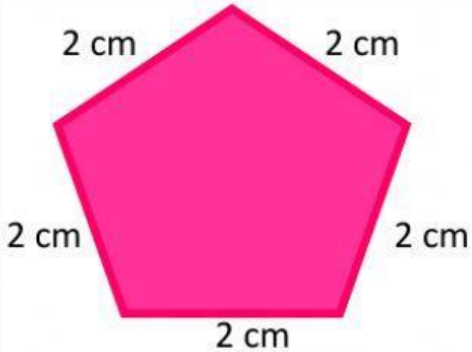

Perímetro= ____ cm

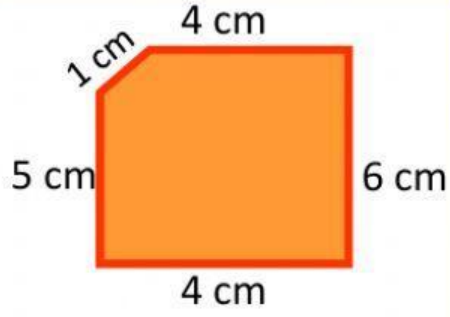

Perímetro= ____ cm