# Περίμετρος

1. Τι ονομάζουμε περίμετρο ενός σχήματος;

☐ a) Το άθροισμα του μήκους των πλευρών ενός σχήματος.

☐ b) Τη συνολική επιφάνεια ενός σχήματος.

☐ c) Το μήκος μίας πλευράς ενός σχήματος.

2. Όταν μου ζητάνε να βρω την περίμετρο ενός σχήματος, βρίσκω

☐ a) Τις πλευρές

☐ b) Το μέσα

☐ c) Το γύρω γύρω

3. Για να βρω την περίμετρο ενός σχήματος πρέπει

☐ a) να προσθέσω όλες τις πλευρές

☐ b) να πολλαπλασιάσω τις πλευρές

☐ c) να προσθέσω κάποιες πλευρές

4. Ποια είναι περίμετρος του σχήματος;




☐ a) 16

☐ b) 18

☐ c) 19

☐ d) 17

5. Ποια είναι περίμετρος του σχήματος;

☐ a) 37

☐ b) 34

☐ c) 38

☐ d) 39

6. Ποια είναι περίμετρος του σχήματος;

☐ a) 50

☐ b) 49

☐ c) 47

☐ d) 48

7. Ποια είναι περίμετρος του σχήματος;

☐ a) 40

☐ b) 34

☐ c) 38

☐ d) 37

8. Ποια είναι περίμετρος του σχήματος;

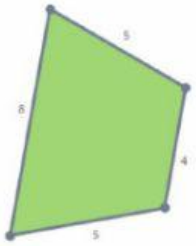


☐ a) 24

☐ b) 21

☐ c) 23

☐ d) 22

9. Ποια είναι περίμετρος του σχήματος;

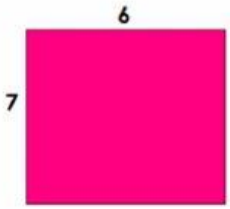


☐ a) 23

☐ b) 26

☐ c) 25

☐ d) 22

10. Ποια είναι περίμετρος του σχήματος;

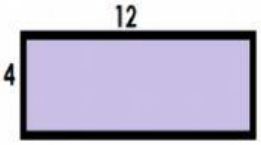


☐ a) 34

☐ b) 32

☐ c) 33

☐ d) 35

Διαμόρφωση :Ιφιγένεια Σταμούλη