Térfogat és felszín értelmezése. Gyakorlatok.

Minden kiskocka 1 cm élhosszúságú. A feladatban az 1. számú kockát alakítom át. Figyeld meg a változásokat!

 1:	Mekkora a térfogata a testnek? V= cm³
	Mekkora a felszíne a testnek? A= cm²

 2.	Térfogata: V= cm³ Az 1. számú kockához képest a térfogat:
	Felszíne: A= cm² Az 1. számú kockához képest a felszín:

 3.	Térfogata: V= cm³ Az 1. számú kockához képest a térfogat:
	Felszíne: A= cm² Az 1. számú kockához képest a felszín:

 4.	Térfogata: V= cm³ Az 1. számú kockához képest a térfogat:
	Felszíne: A= cm² Az 1. számú kockához képest a felszín:

 5.	Térfogata: V= cm³ /Három kiskocka hiányzik/ Az 1. számú kockához képest a térfogat:
	Felszíne: A= cm² Az 1. számú kockához képest a felszín:

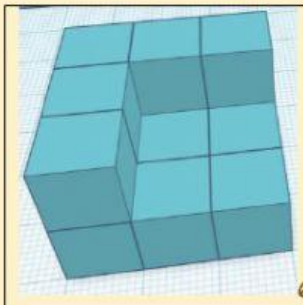 6.	Minden kiskocka 2 cm élhosszúságú Térfogata: V= cm³
	Felszíne: A= cm²

 7.	Minden kiskocka 2 cm élhosszúságú Térfogata: V= cm³
	Felszíne: A= cm²

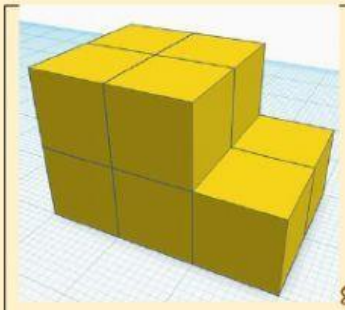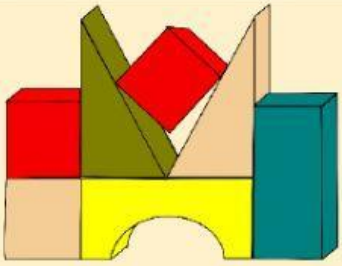 8.	Minden kiskocka 3 cm élhosszúságú Térfogata: V= cm³
	Felszíne: A= cm²