Figuras bidimensionales:

"Lados y vértices"

1. Arrastra el nombre de cada figura a su lugar:

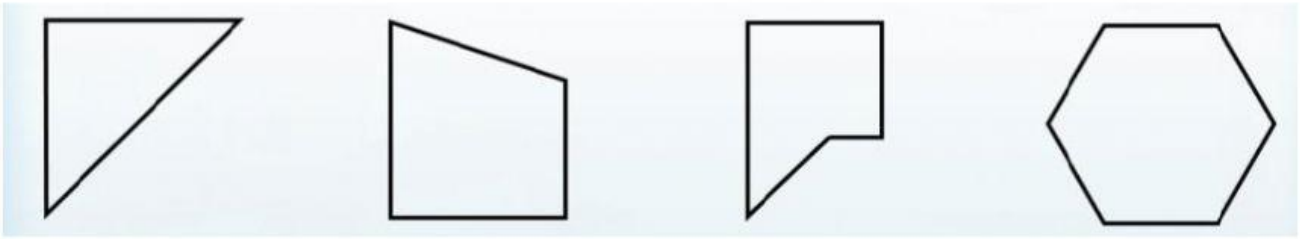

Cuadrilátero **Hexágono** **Triángulo** **Pentágono**

2. Une con una línea según corresponda:

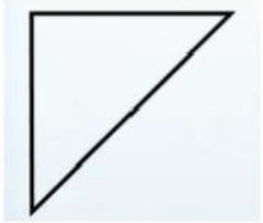

5 lados
5 vértices



4 lados
4 vértices



3 lados
3 vértices

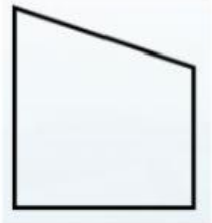

6 lados
6 vértices