15 de enero de 2021

GEOGRAFÍA
4° Parcial
ACTIVIDAD DE REPASO

Nombre: _____

Contesta los siguientes reactivos escribiendo en los recuadros.

SISTEMAS TERRESTRES:(L. Geografía pág. 45-51 y Atlas pág. 49)

1.- ¿Qué es la latitud? _____

_____

2.- México, en qué latitud se encuentra ¿Norte o Sur? _____

_____

3.- ¿Qué relación hay entre la latitud y el clima? _____

_____

En el esquema marca sobre el eje terrestre la latitud 0° norte, 20° sur y 45° norte.

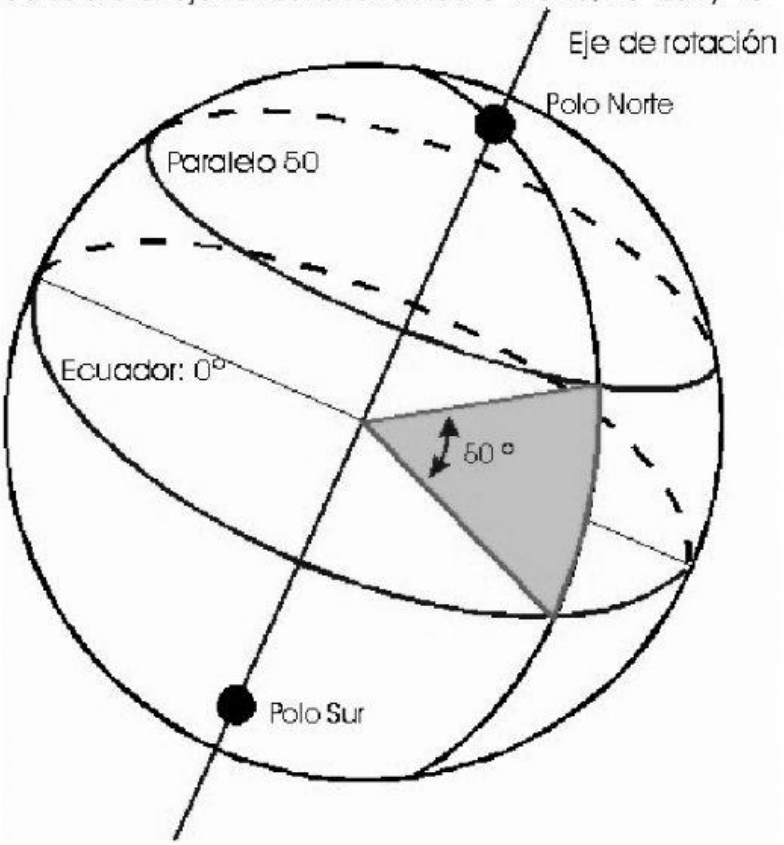

Consulta el Atlas pág. 49 y escribe 5 países que tengan los siguientes climas:

TROPICALES	SECOS	TEMPLADOS	FRÍO	POLAR

¿Qué climas se identifican entre los 80° y 90° de latitud? _____

_____

¿Y a los 50° Latitud Norte? _____

_____

¿Cuál es el clima predominante a 0° grados de latitud? _____

_____

¿Por qué en Europa no hay climas tropicales? _____

_____

Nombra tres climas que haya en México: _____

_____

¿Qué representa la siguiente imagen?

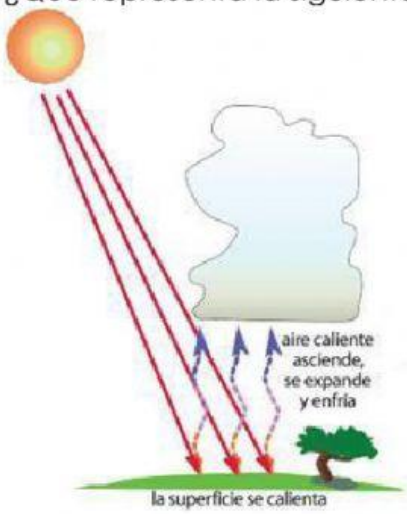

_____

Escribe el número que corresponda según el clima de la región natural en que viven los siguientes seres vivos. Ilumina los dibujos.

1.- Región natural de clima seco
2.- Región Natural de clima templado
3.- Región natural de clima cálido
4.- Región natural de clima frío
5.- Reg. Nat. de clima polar



Haz una lista, con sus capitales y continentes, de los 12 países megadiversos que hay en el mundo. Localízalos en el mapa, anota sus nombres.

PAÍS	CAPITAL	CONTINENTE	PAÍS	CAPITAL	CONTINENTE

Escribe renovable, no renovable o permanente según corresponda a los siguientes recursos naturales.

LOS RECURSOS NATURALES Son los elementos de la naturaleza que pueden ser útiles para el hombre, ya sea empleándolos directamente o transformándolos.

viento	maíz	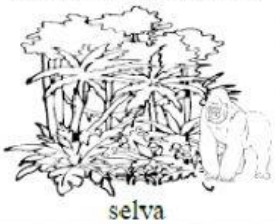 selva	carbón mineral
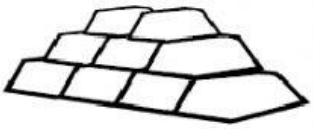 metales	agua	petróleo	animales
 energía solar	 peces	Bosque de pinos	 suelo