COMPARANDO SUPERFICIES

❖ Observa las siguientes imágenes y responde lo que se te pide.

Figura 1

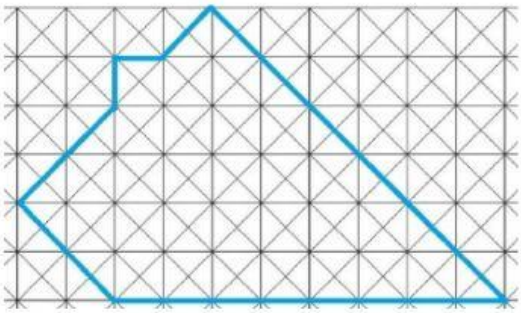

Figura 2

¿Cuál figura tiene mayor superficie? _____

Argumenta tu respuesta:

_____

_____

_____

_____

Figura 3

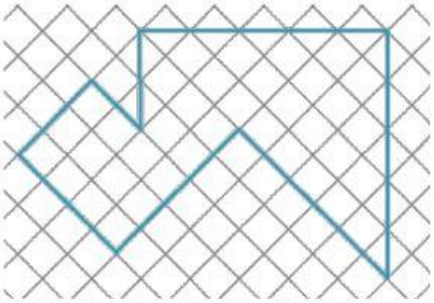

Figura 4

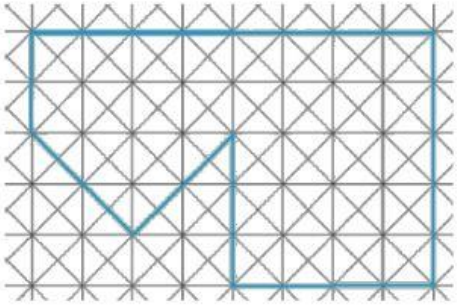

¿Cuál figura tiene menor superficie? _____
Argumenta tu respuesta: _____

_____

_____

_____

Figura 5

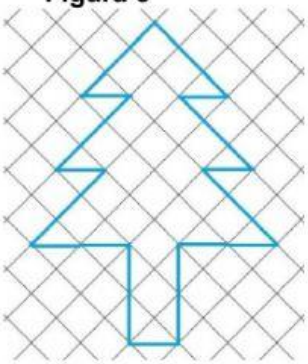

Figura 6

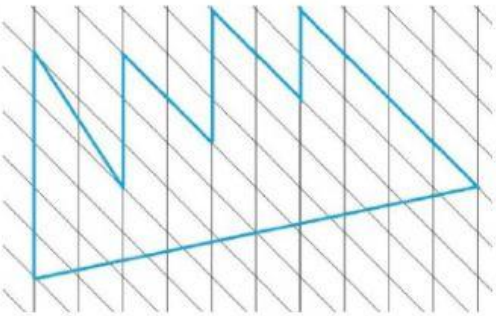

¿Cuál figura tiene mayor superficie? _____

Argumenta tu respuesta:

_____

_____

_____

- En la siguiente tabla registra la medida de la superficie de las figuras 1 a la 5, ordenándolas de menor a mayor tamaño. Para ello, trata de identificar una misma unidad de medida que pueda utilizarse en las cinco figuras.

Figura	Superficie