ДОСЛІДЖУЄМО КУТ

1 Попрацюй із математичними матеріалами.

2 Назви геометричні фігури.

КУТ

Два промені зі спільним початком утворюють кут.
Промені — це сторони кута.
Точка, із якої проведені промені, — вершина кута.

Обери кути.

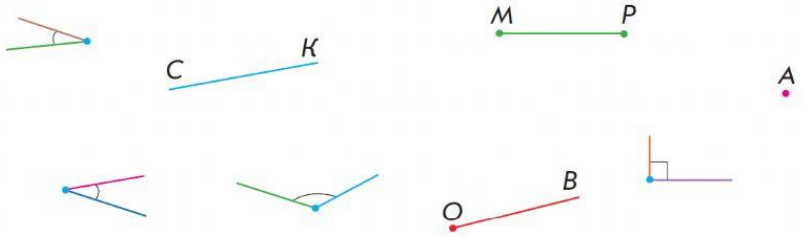

5 Сашко показав сторони многокутників різними кольорами. Назви сторони многокутників; їхні вершини. Відшукай кути у фігурах. Розглянь, як хлопчик показав кути.

Скільки кутів ма кожна фігура? Обери правильну відповідь.

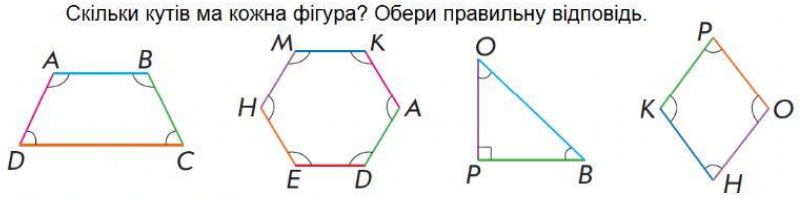

Яка серед фігур не має кутів?

Скільки вершин має кожна фігура?



7 Кути позначають буквами. Вершину кута записують посередині. Розглянь зразок. Обери, де записана правильна назва кута?

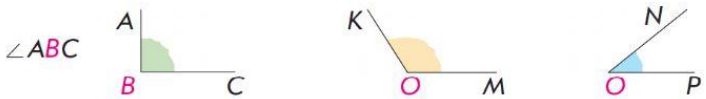

9 Обчисли значення виразів трьома способами.

56 − 8 =
. . + . .

35 + 9 =
. . + .

56 − 8 =
. + .

35 + 9 =
. + .

56 − 8 =

35 + 9 =