Geometría

1. ¿Cuál de estas figuras es un cuadrilátero? Señala todas las opciones posibles.

☐ a)

☐ b)

☐ c)

☐ d)

☐ e)



LIVEWORKSHEETS

2. ¿Cuál de estas figuras es un círculo?

☐ a)

☐ b)



1. En la imagen hay dos pentágonos. ¿Cuáles son?

☐ a)

☐ b)

☐ c)

☐ d)

☐ e)



LIVEWORKSHEETS

2. ¿Cuál de las siguientes figuras es una circunferencia?

☐ a)

☐ b)

3. Señala el triángulo equilátero.

☐ a)

☐ b)

☐ c)

4. ¿Cómo se llaman las figuras que tienen seis lados?

Pentágono

Hexágono

Cuadrilátero

LIVEWORKSHEETS

5. Calcula el perímetro de este cuadrado:

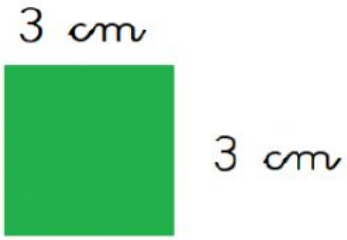

Su perímetro mide_____cm

6. ¿Y el perímetro de este triángulo equilátero?



El perímetro mide_____cm

7. Calcula el área de esta figura:

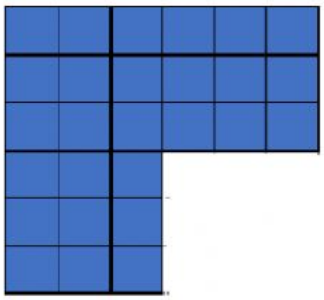

Su área es_____

8. Calcula el área de esta figura:

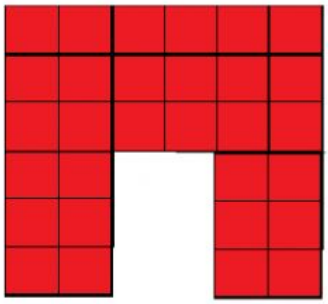

Su área es_____

LIVEWORKSHEETS