수학	1학년 2학기 수학 복습하기 〈시계 보기와 규칙 찾기〉	이름(　　)

★ 동영상을 보면서 〈규칙을 찾아 말해 볼까요〉 차시를 복습해 봅시다.

https://youtu.be/JWwvH441M8g

★ 반복되는 규칙에 따라 빈 칸에 알맞은 그림을 드래그해서 넣어보세요.

1.

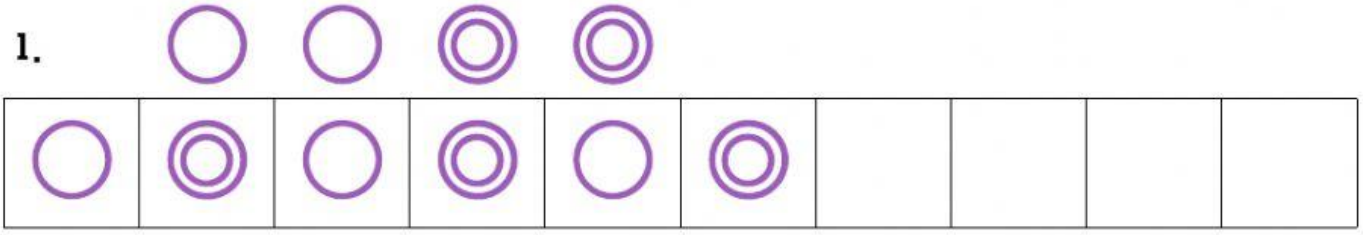

2.

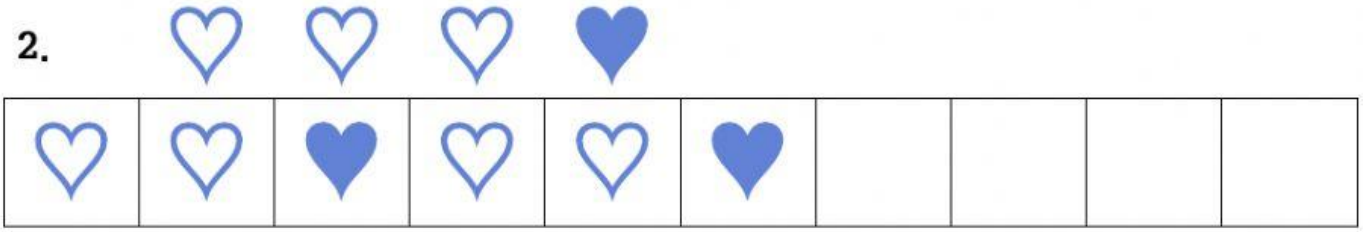

3.

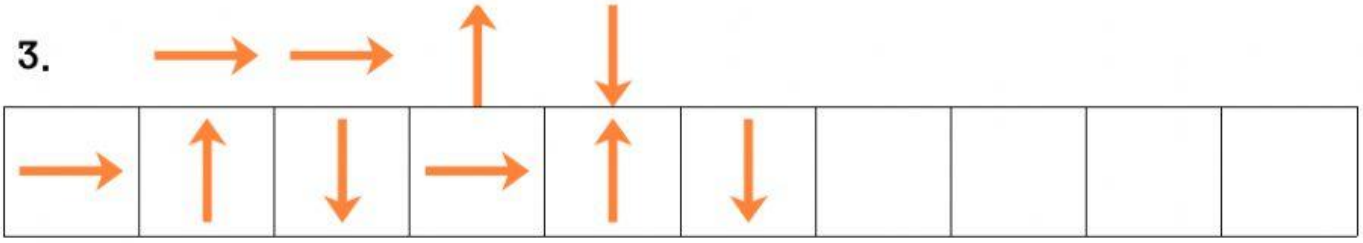

4. △ △ ○ □

□	○	△	△	□	○	△	△				

5. ○ ● ◇ ▼

◇	●	○	▼	◇	●	○	▼				

6. \ \ ✳ ✳ /

/	\	✳	/	\	✳	/					

7. ∨ ∧ ∧

∧	∧	∧	∨	∧	∧	∧	∨	∧			

★ 동영상을 보면서 <규칙찾기> 수 배열에서 규칙을 찾아볼까요 차시를 복습해 봅시다.

https://youtu.be/W-5-0ERDpn4

★ 규칙에 따라 빈 칸에 알맞은 수를 쓰세요.

1.

1	3	5	1	3	5	1			

2.

1	4	9	7	5	1	4	9	7	5		

3. 3 7 3 7 3 7 ◯ ◯

4. 1 3 ☐ ☐ 9 11 ☐ 15

5. 20 30 40 ☐ ☐ 70 ☐ 90

6. 16 14 ◯ 10 ◯ 6 4 ◯

★ 새로운 규칙을 만들고, 내가 만든 규칙에 따라 수를 쓰세요.

(1) 내가 만든 규칙 _____

☐ ☐ ☐ ☐ ☐ ☐ ☐ ☐

(2) 내가 만든 규칙 _____

☐ ☐ ☐ ☐ ☐ ☐ ☐ ☐

★ 다음 시계의 시간을 읽어보고, 알맞은 색깔을 드래그해 놓아보세요. 어떤 그림이 될까요?

빨간색으로 칠할 것	1시, 2시, 3시, 4시, 5시, 6시, 7시, 8시, 11시, 12시
파란색으로 칠할 것	1시 30분, 2시 30분, 3시 30분, 5시 30분, 6시 30분, 7시 30분, 10시 30분

10:30		2:30	1:00	
	6:00		2:00	8:00
3:00	4:00	1:00	11:00	
	12:00	5:00		3:30
7:30			5:30	
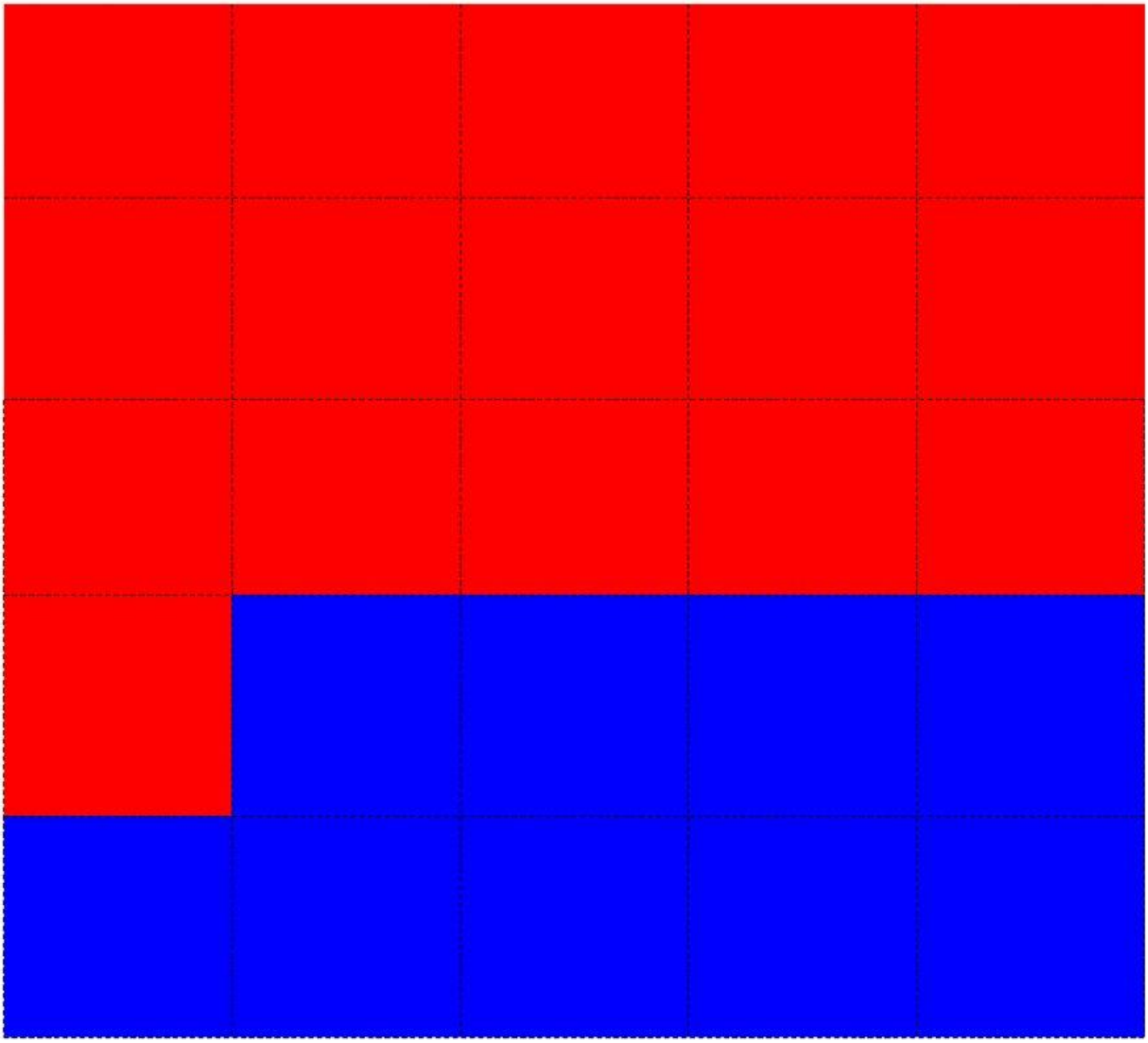
★ 무슨 모양이 되었나요? _____