CENTRO EDUCATIVO

Freedom

AÑO LECTIVO 2020 – 2021

EVALUACIÓN DE CIENCIAS NATURALES – SEGUNDO PARCIAL
PRIMER QUIMESTRE – CUARTO GRADO

1. ¿Qué es la polinización?

- Proceso de transporte del polen desde los estambres de una planta a la parte receptora de otra.
- Proceso de transporte de líquidos desde los estambres de una planta a la parte receptora de otra.
- Proceso de transporte de fluidos desde los estambres de una planta a la parte receptora de otra, de la misma especie.

2. Escoger la respuesta correcta. (Tipos de polinización)

3. Completar:

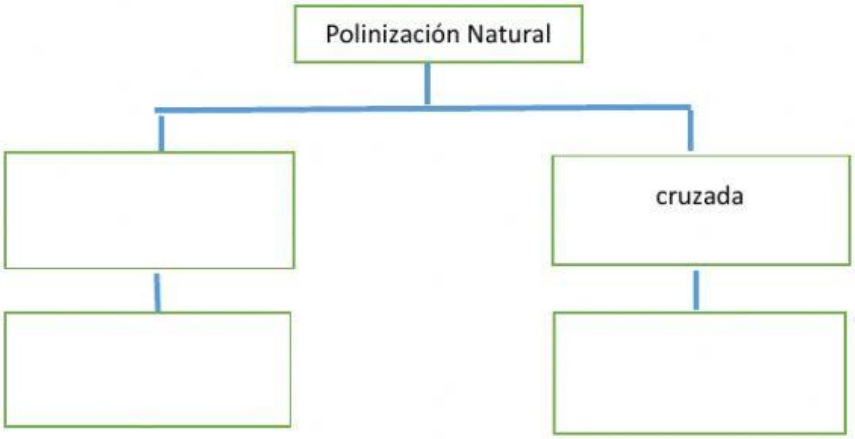

directa o autopolinización

El grano de polen de una flor es llevado al estigma de otra flor

El grano de polen producido en el estambre llega al estigma de la misma flor

4. Los animales según la presencia o ausencia de huesos se clasifican en:

5. Clasifica estos animales.



VERTEBRADOS	INVERTEBRADOS

6. Clasificación de animales invertebrados.

Invertebrados CON protección corporal	Invertebrados SIN protección corporal

equinodermos	gusanos	celentéreos
esponjas	artrópodos	moluscos

7. Marca la opción correcta: Animales invertebrados. (verdadero o falso)

V o F

V o F

V o F

V o F

V o F

V o F

V o F

8. Completar el organizador gráfico.

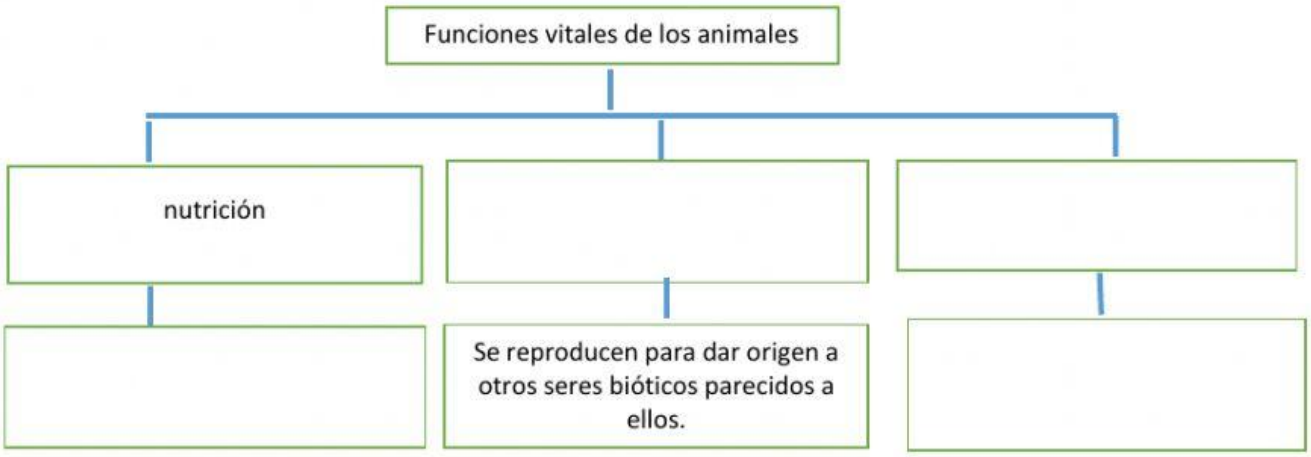

Son heterótrofos porque buscan alimento para obtener energía, ésta energía se llama nutrición.

Reaccionan a eventos llamados estímulos y estas reacciones de llaman respuestas.

relación

reproducción

9. Unir con una línea.

ovíparos	Nacen de huevos pero se mantienen en el vientre de la madre.
vivíparos	Comen todo tipo de alimentos.
carnívoros	Se alimentan de carne.
omnívoros	Nacen del vientre de la madre.
ovovivíparos	Se alimentan de hierba.
herbívoros	Nacen de huevos

10. Completar:

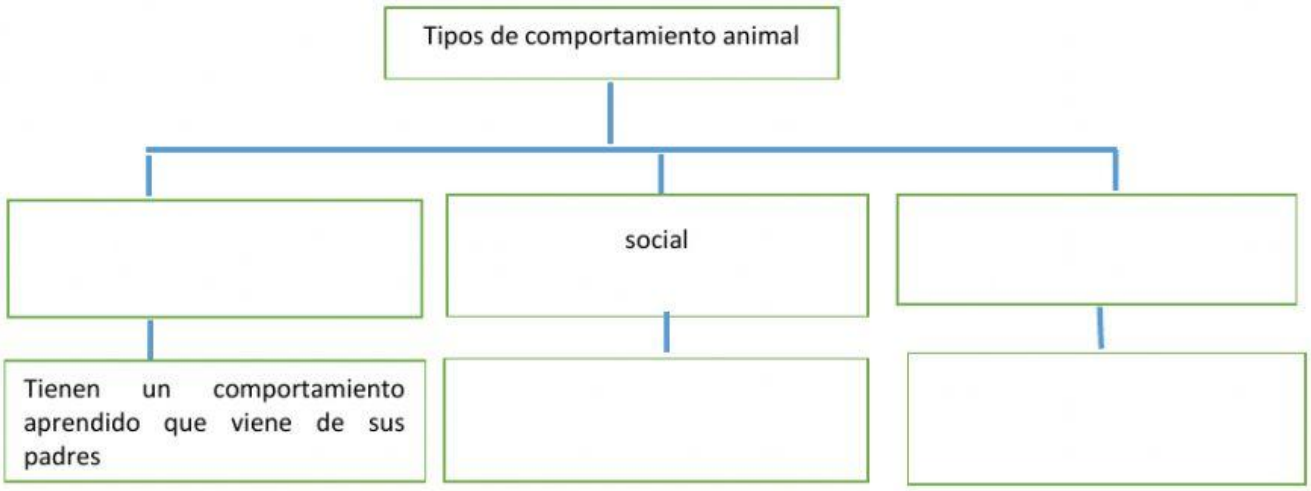

Les permite relacionarse con otros miembros de la población

aprendido

instintivo

desde su nacimiento

Lic. Verónica Villamil