"BELAJAR GEOGRAFI HEPI"
LEMBAR KERJA PESERTA DIDIK DIGITAL

Belajar Geografi Itu Hepi | @Geohepi2018 | @Geo_Hepi | M Rifky AZ

KOMPETENSI DASAR

3.5 Menganalisis dinamika litosfer dan dampaknya terhadap kehidupan

MATERI

SEISME

NAMA	:	
SEKOLAH	:	
KELAS	:	

A. BERILAH KARAKTERISTIK SEISME BERIKUT INI! DENGAN CHECK LIST!

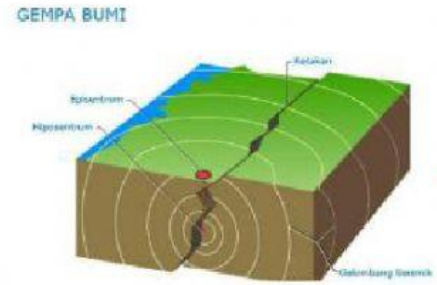

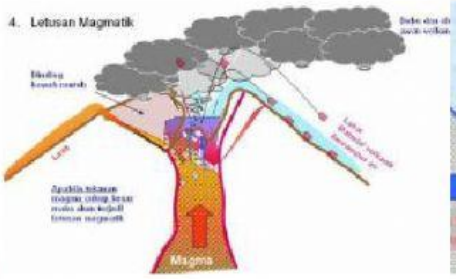

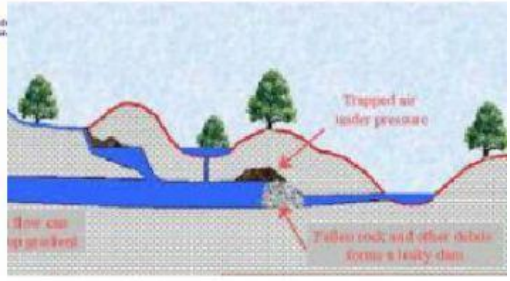

	Tenaga pembentuk endogen		**Tenaga pembentuk endogen**		**Tenaga pembentuk endogen**
	Tenaga pembentuk eksogen		**Tenaga pembentuk eksogen**		**Tenaga pembentuk eksogen**
	Terlihat gejala akan terjadinya		**Terlihat gejala akan terjadinya**		**Terlihat gejala akan terjadinya**
	Tidak Dapat diprediksi		**Tidak Dapat diprediksi**		**Tidak Dapat diprediksi**

B. BERILAH KETERANGAN PADA ALAT BERIKUT INI!

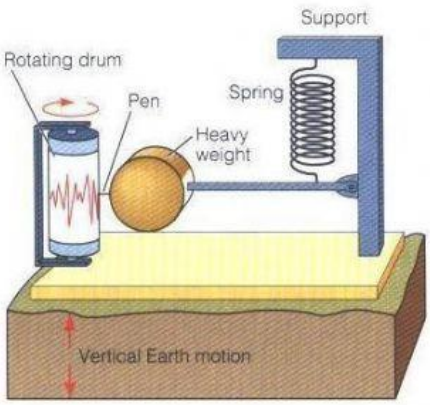

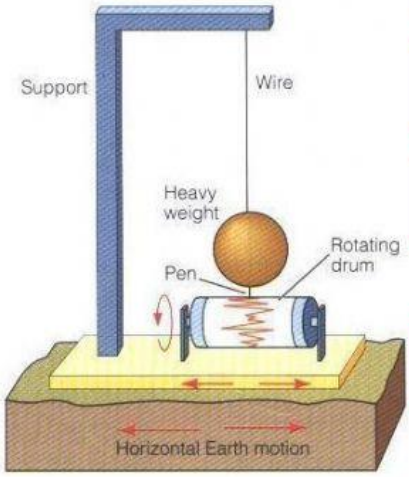

OMBROMETER

SISMOGRAF

BAROMETER

TEMPELKAN DISINI

LIVEWORKSHEETS

C. BERILAH KETERANGAN SISME PADA KETIGA GAMBAR TERSEBUT!

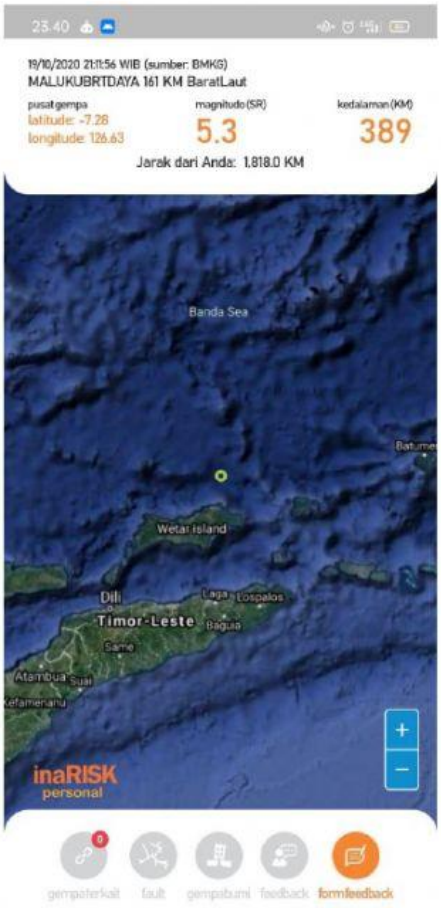

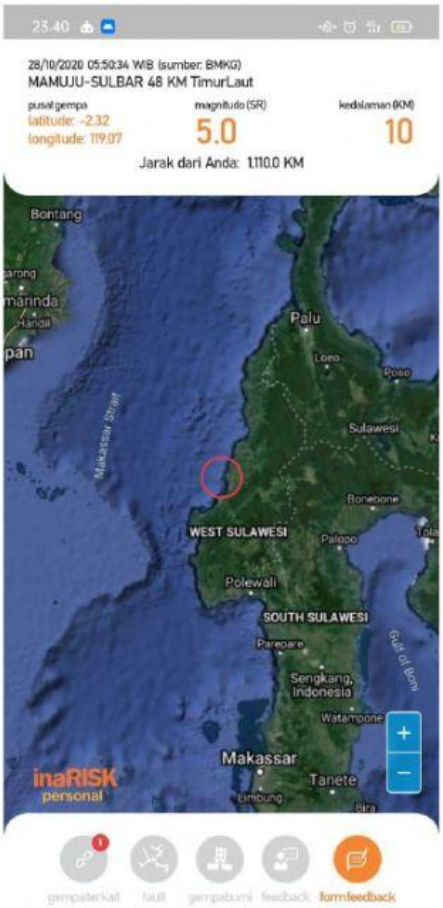

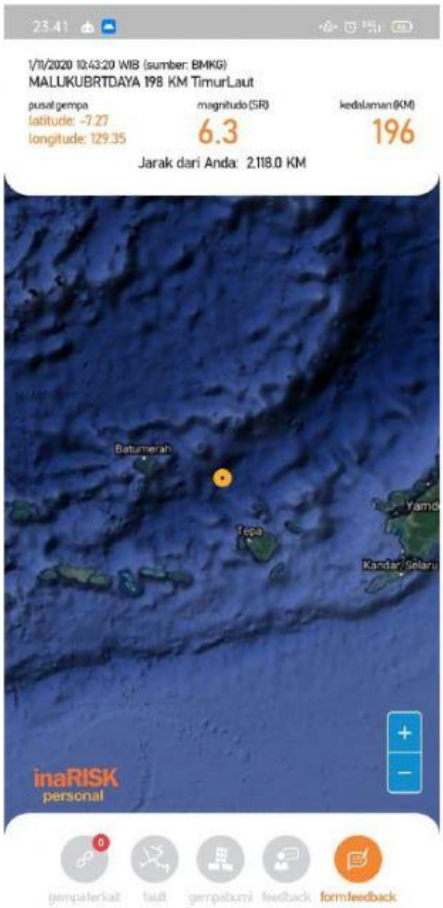

TARIK DAN PASANGAN KARAKTERISTIK GEMPA PADA GEMPA TERSEBUT!

GEMPA DANGKAL	**GEMPA MENENGAH**	**GEMPA DALAM**
MMI 5	**MMI 6**	**MMI 7**
MMI 8	**AGAK KUAT**	**KUAT**
SANGAT KUAT		**MERUSAK**

LIVEWORKSHEETS

D.JAWABLAH PERTANYAAN BERIKUT!

Jika seismograf mencatat gelombang primer pada pukul 10.30′.15″ dan gelombang sekunder pukul 10.37′.45″.Maka jarak episentrum gempa adalah?

A. 6.100 KM
B. 6.200 KM
C. 6.300 KM
D. 6.400 KM
E. 6.500 KM

JAWAB DISINI
TULIS
A/B/C/D/E

BELAJAR GEOGRAFI HEPI BERSAMA GEOHEPI

LIVEWORKSHEETS