5º MÚSICA. REPASO DEL PRIMER TRIMESTRE

1. Escribe debajo de cada nota su nombre.



2. Realiza las siguientes sumas de figuras musicales.

Recuerda:

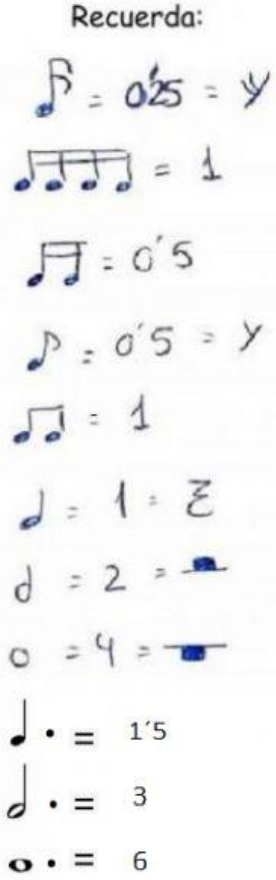

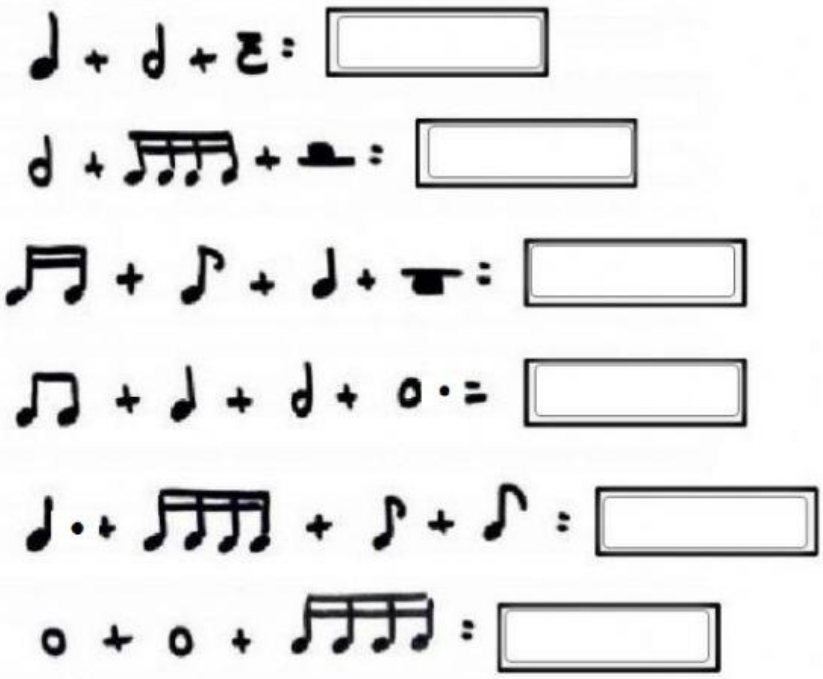

3. Une con flechas cada indicación de tempo con su significado.

Adagio ●	● Moderado
Moderato ●	● Lento
Presto ●	● Rápido
Allegro ●	● Muy rápido

4. Elige la familia correspondiente de cada instrumento entre las opciones dadas.

Cuerda frotada

Cuerda percutida

Cuerda pulsada

Viento madera

Viento metal

Viento madera

Viento metal

Percusión determinada

Percusión indeterminada

Viento madera

Viento metal

Percusión determinada

Percusión indeterminada

5. Escribe debajo de cada imagen el tipo de agrupación correspondiente.

Orquesta sinfónica **Solista** **Coro de voces blancas** **Cuarteto de cuerda** **Coro femenino**