"BELAJAR GEOGRAFI HEPI"
LEMBAR KERJA PESERTA DIDIK DIGITAL

Belajar Geografi Itu Hepi | @Geohepi2018 | @Geo_Hepi | M Rifky AZ

KOMPETENSI DASAR

3.5 Menganalisis dinamika litosfer dan dampaknya terhadap kehidupan

MATERI

VULKANISME

NAMA	:	
SEKOLAH	:	
KELAS	:	

A. BERILAH KETERANGAN PADA SUMBER ERUPSI GUNUNG API BERIKUT INI!

Dapur Magma

Pipa Kepundan

Erupsi Eksentrik

Erupsi Pusat

Kawah

Lubang Kepundan

Erupsi Samping

Erupsi Samping

Leleran Lava

Lapisan Batuan

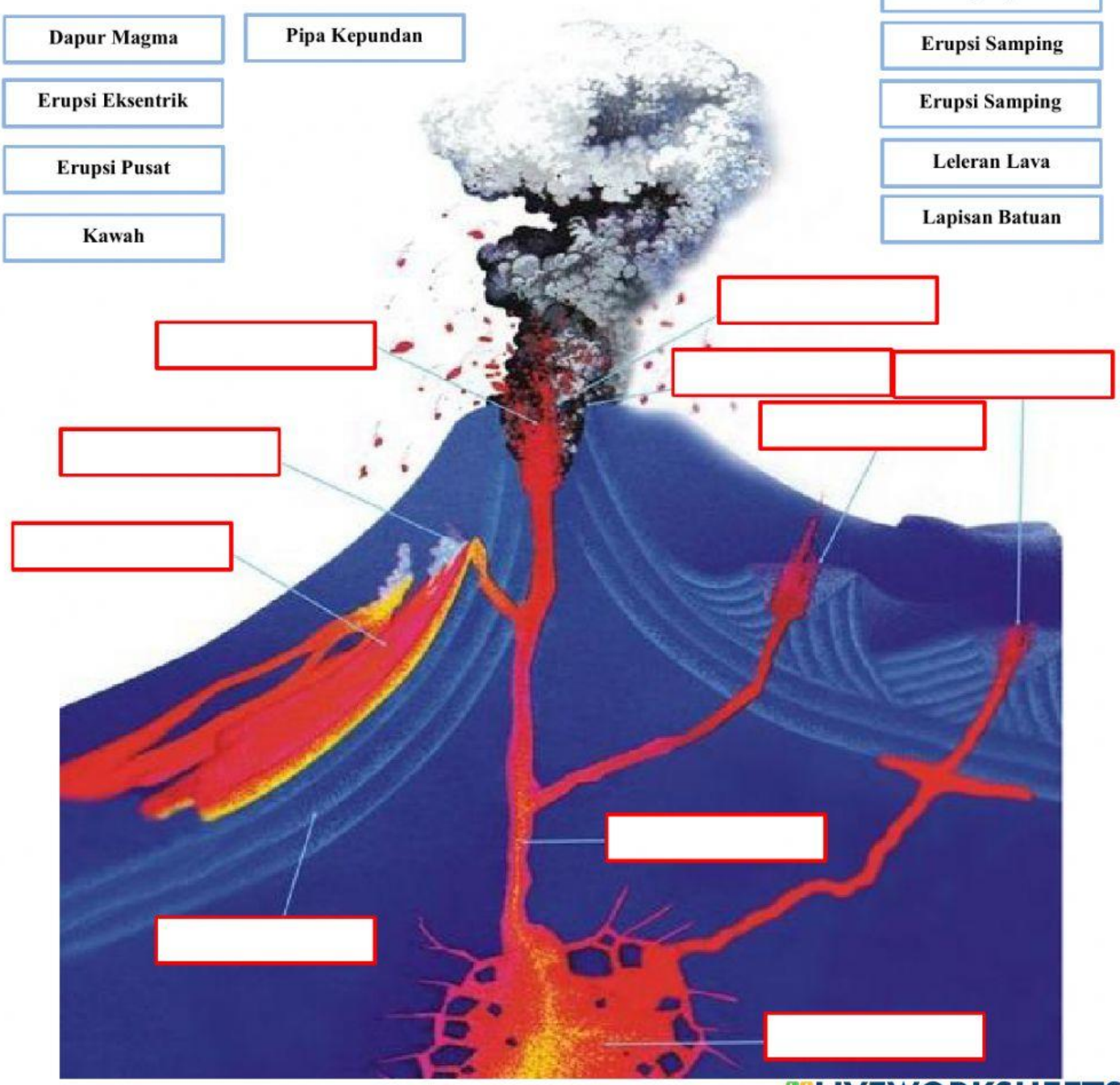

LIVEWORKSHEETS

B. PERHATIKAN GAMBAR BERIKUT SEBAGAI DASAR MELENGKAPI GAMBAR DIBAWAHNYA!

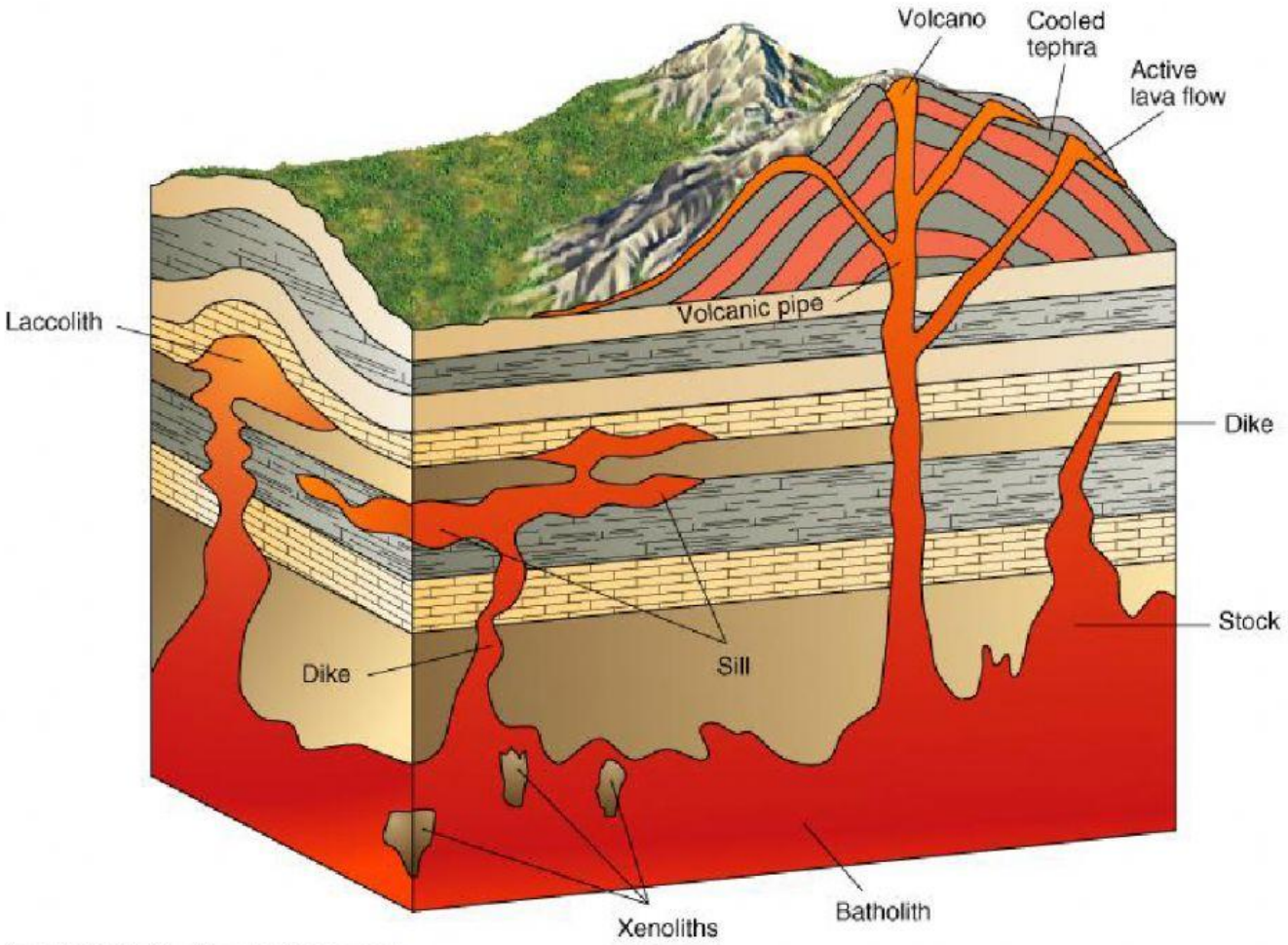

Copyright 2000 John Wiley & Sons, Inc. All rights reserved.

LAKOLIT	**DIKE**	**BATOLIT**	**SIIL**

LIVEWORKSHEETS

C. BERILAH KETERANGAN KARAKTERISTIK BENTUK GUNUNG API BERIKUT DENGAN CHECK LIST!

	Dibangun oleh erupsi eksplosif		Dibangun oleh erupsi eksplosif		Dibangun oleh erupsi eksplosif
	Dibangun oleh erupsi berupa piroklastik dan lava		Dibangun oleh erupsi berupa piroklastik dan lava		Dibangun oleh erupsi berupa piroklastik dan lava
	Dibangun oleh aliran lava		Dibangun oleh aliran lava		Dibangun oleh aliran lava
	Hanya memiliki letusan effusif		Hanya memiliki letusan effusif		Hanya memiliki letusan effusif
	Memiliki letusan eksplosif dan effusif		Memiliki letusan eksplosif dan effusif		Memiliki letusan eksplosif dan effusif
	Memiliki erupsi yang dominan gas		Memiliki erupsi yang dominan gas		Memiliki erupsi yang dominan gas
	Magma bersifat asam		Magma bersifat asam		Magma bersifat asam
	Magma bersifat basa		Magma bersifat basa		Magma bersifat basa

D. PASANGKAN DENGAN MEMBERI PANAH JENIS GUNUNG API BERIKUT!

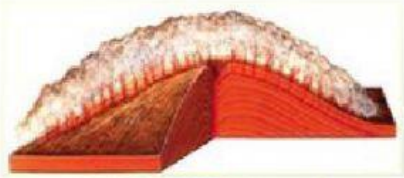

PELLE

STROMBOLI

HAWAII

LIVEWORKSHEETS



PERRET

ST VINCENT

VULCANO

MERAPI

E.JAWABLAH PERTANYAAN BERIKUT!

Salah satu dampak positif tektonisme terhadap kehidupan adalah...
A. Pengeboran minyak dan gas ditemukan
B. Terbentuknya lereng pegunungan
C. Adanya letusan gunung berapi
D. Tanah semakin subur
E. Terjadi gempa bumi

JAWAB DISINI
TULIS
A/B/C/D/E

Ledakan terjadi karena dapur magma dalam gasnya bersifat asam.ledakan ini menyebabkan benda-benda padat, seperti bom, lapili, kerikil, dan debu vulkanik keluar dari kawah gunung Merapi. Peristiwa ini disebut dengan ...
A. Erupsi areal
B. Erupsi efusif
C. Erupsi eksplosif
D. Ekstrusi magma
E. Intrusi magma

JAWAB DISINI
TULIS
A/B/C/D/E

BELAJAR GEOGRAFI HEPI BERSAMA GEOHEPI

LIVEWORKSHEETS